6. Completa el següent quadre sobre aquestes forces:

	Quin tipus de força és?	De contacte o a distància?
Força suportada per un cable o una corda quan un cos estira el cable o la corda d'on penja.		
Força amb què la Terra atrau els cossos.		
Força que s'oposa al moviment.		

Força pes

De contacte

A distància

De contacte

Força de tensió

Força de fregament

7. Indica cap a quina direcció anirà la força de fregament en cadascun dels casos següents:

a) Bicicleta movent–se cap a la dreta. 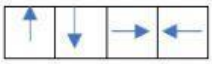

b) Pilota caient per l'aire.

c) Persona corrent endavant. 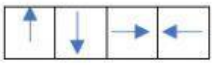

d) Armari desplaçant–se cap a l'esquerra per terra. 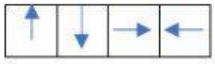

8. La força és una magnitud vectorial. Indica quina part representa el mòdul , quina representa la direcció i quina representa el sentit que fa una força determinda:

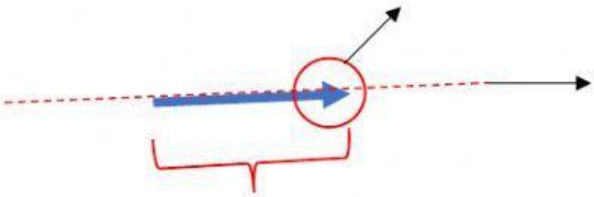

LIVEWORKSHEETS