بسم الله الرحمن الرحيم

المملكة العربية السعودية.
وزارة التعليم.
مدارس تربية الأبناء الأهلية.
المرحلة الابتدائية.
الصف السادس الابتدائي

مراجعة نهائية شاملة للفصل التاسع

س١/ اختاري الإجابة الصحيحة:

أي زاوية مما يأتي قياسها ٥٠ ° تقريبًا؟			
(أ) 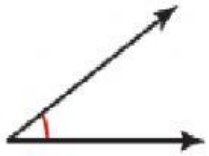	(ب) 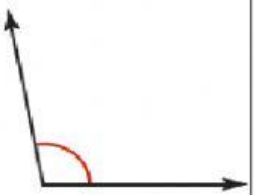	(ج) 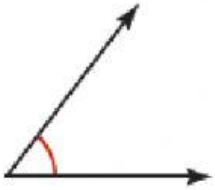	(د) 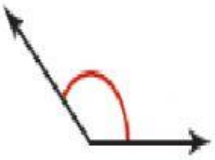
قيمة س في الشكل المجاور: 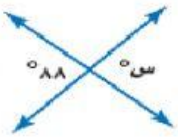			
٢٢°	٤٤°	٦٦ °	٨٨°
قيمة س في الشكل المجاور: 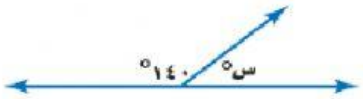			
٤٠°	٧٠°	١٢٠ °	١٤٠°
قيمة س في الشكل المجاور: 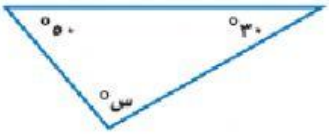			
٣٠°	٥٠°	٧٠ °	١٠٠°

LIVEWORKSHEETS

بسم الله الرحمن الرحيم

المملكة العربية السعودية.
وزارة التعليم.
مدارس تربية الأبناء الأهلية.
المرحلة الابتدائية.
الصف السادس الابتدائي

س٢ / اختاري كلمة صح إذا كانت العبارة صحيحة وكلمة خطأ إذا كانت العبارة خاطئة:

الزاويتان اللتان مجموع قياسيهما يساوي ٩٠ ° هما زاويتان متكاملتان	
يصنف المثلث المجاور على أنه: مثلث مختلف الأضلاع 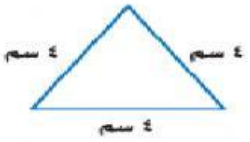	

مع تمنياتي لك بالنجاح والتوفيق:

معلمتكِ الفخورة بك:

أ/ نجود الحارثي.

LIVEWORKSHEETS