اسم الطالب		الفصل		الوحدة	الرابعة

١ في الدائرة M التي طول قطرها $16cm$ يكون طول نصف قطرها يساوي

أ	ب	ج	د
$16cm$	$8cm$	$4cm$	$32cm$

٢ دائرة نصف قطرها $6\ ft$ يكون محيطها يساوي

أ	ب	ج	د
$12\pi\ ft$	$6\pi\ ft$	$3\pi\ ft$	$36\pi\ ft$

٣ من الشكل المقابل قيمة x تساوي

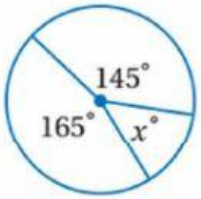

أ	ب	ج	د
40°	140°	30°	20°

٤ في الشكل المقابل إذا كان $CD = 20$ فإن CE تساوي

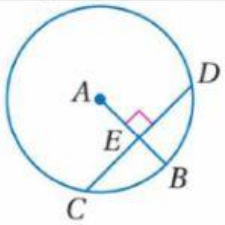

أ	ب	ج	د
5	10	20	15

٥ في الشكل المقابل إذا كان $NP = 16$ فإن LM تساوي

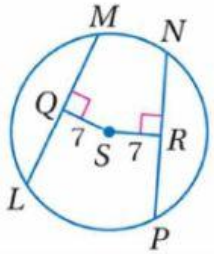

أ	ب	ج	د
16	8	32	10

٦ من الشكل المقابل تكون $m\angle B$ تساوي

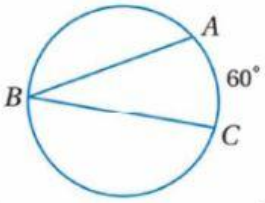

أ	ب	ج	د
60°	30°	120°	100°

٧ في الشكل المقابل تكون قيمة x تساوي

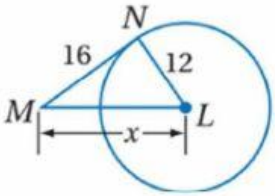

أ	ب	ج	د
15	20	25	16

٨

	من الشكل المقابل تكون قيمة الزاوية x تساوي 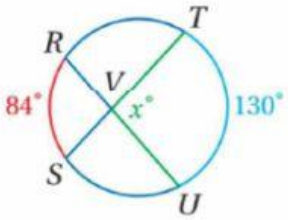						
	أ	130°	ب	84°	ج	214°	د 107°
٩	من الشكل المقابل تكون $m\angle 2$ تساوي 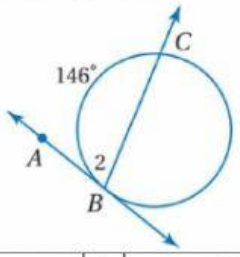						
	أ	73°	ب	146°	ج	90°	د 50°
١٠	من الشكل المقابل تكون قيمة x تساوي 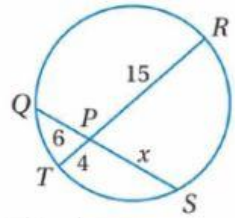						
	أ	4	ب	6	ج	15	د 10
١١	نصف قطر الدائرة التي معادلتها $(x-2)^2+(y-4)^2=25$ يساوي						
	أ	25	ب	10	ج	5	د 4

معلم المادة	ناصف احمد	المشرف التربوي	أ/ محمد جاب الله