Examen de naturales: segundo de básica

Nombre:

Tema I. Elije la respuesta correcta.

1- Los seres vivos realizan tres funciones vitales que son:

a) nutrición, reproducción, relación b) metamorfosis c) suelo

2- El ciclo de vida de las plantas empieza cuando la:

a) fotosíntesis b) semilla cae al suelo c) agua

3- Proceso por el cual las plantas fabrican su propio alimento:

a) reproducción b) fotosíntesis c) ambas

4- Es el proceso que viven algunos animales y hacen que tengan grandes cambios durante su ciclo de vida:

a) metamorfosis b) relación c) vida

5- De acuerdo a su alimentación los animales pueden ser:

a) cutáneo b) mineral c) carnívoros, herbívoros y omnívoros

6- La respiración en los animales puede ser:

a) cutánea, traqueal y branquial b) vegetal c) invertebrado

7- Las partes de una planta son:

a) hueso b) raíz, tallo, hojas, frutos flores c) columna vertebral

8- Los alimentos pueden ser de origen:

a) mineral, animal y vegetal b) cuerpo c) todas

9- El sistema biológico constituido por una comunidad de seres vivos es un:

a) ecosistema b) dióxido de carbono c) clorofila

10- La parte de las plantas donde se lleva a cabo la fabricación de alimento y la respiración es:

LIVEWORKSHEETS

a) raíz b) tallo c) flores

Tema II. Arrastra las partes de las plantas y sus funciones al lugar que corresponde.

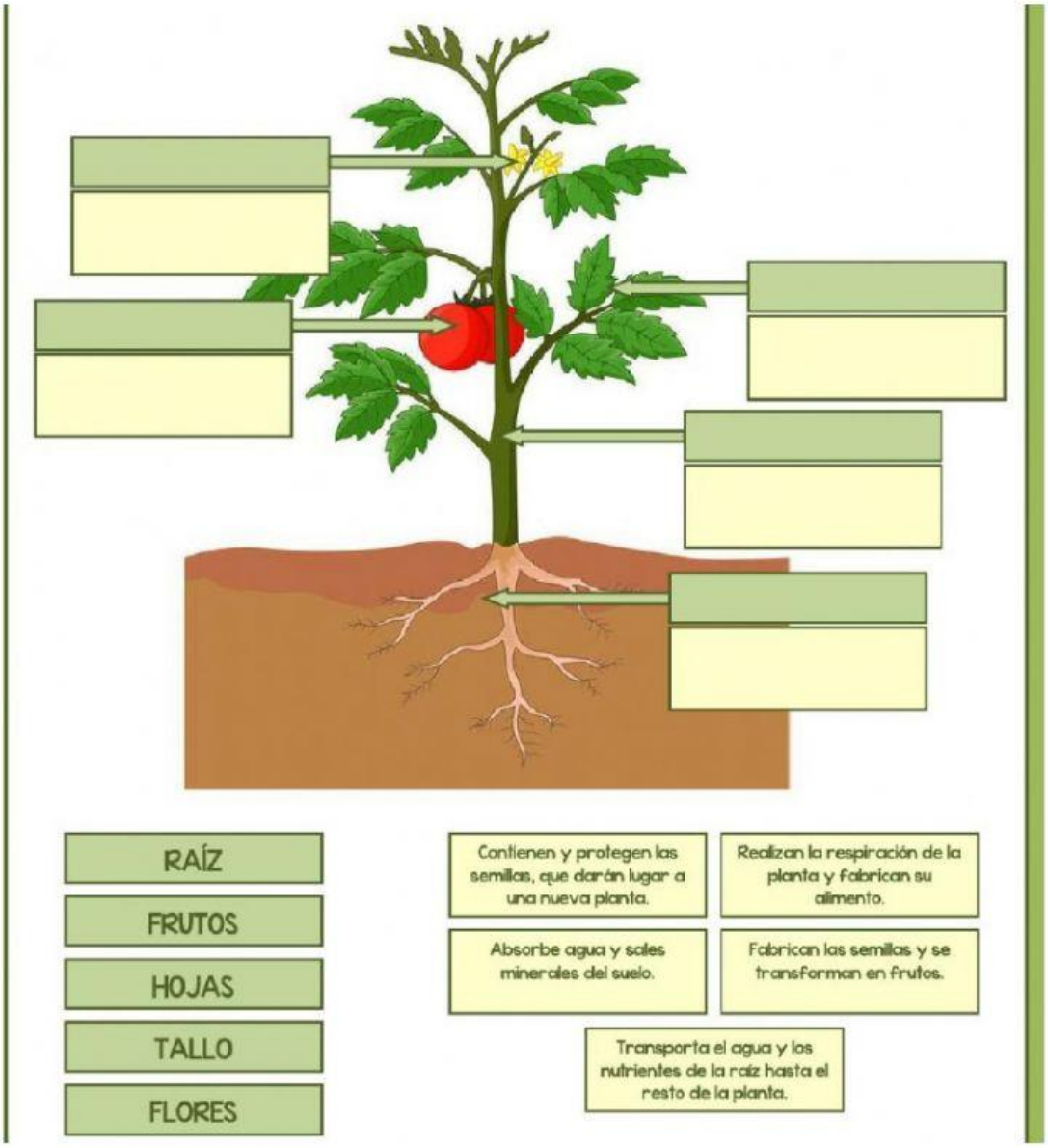

LIVEWORKSHEETS

Tema III. Clasifica arrastrando y colocando cada animal donde corresponde.

Vertebrados	Invertebrados

LIVEWORKSHEETS

Tema: IV. Trabaja atendiendo a los mandatos.

Selecciona la opción correcta.

- Los alimentos que se obtienen de las plantas son de origen...

animal vegetal

- La planta que nazca en vuestro semillero mágico es de origen...

animal vegetal

Clasifica los alimentos según su origen.

animal
vegetal



animal
vegetal



animal
vegetal



animal
vegetal



animal
vegetal

animal
vegetal

animal
vegetal

animal
vegetal

animal
vegetal

LIVEWORKSHEETS

Tema V. A) Relaciona el tipo de respiración con el órgano.

A) Respiración cutánea	tráqueas
B) Respiración branquial	pulmones
C) Respiración pulmonar	piel
D) Respiración traqueal	branquias

B) Piensa en un animal que te guste mucho y completa lo que te pido.

Nombre:

Es un anima:

Nace:

Tiene el cuerpo cubierto:

Come:

Por tanto, es un animal:

LIVEWORKSHEETS