## DECIMALES EN LA RECTA NUMÉRICA

Observa el video en YouTube y conforme a las orientaciones ubica los números decimales en la recta numérica, si ya lo sabes hacer no es necesario ver el video.

1. Arrastra cada número decimal a su lugar correspondiente en cada recta.

0,2 - 0,7 - 1,3

1,6 - 0,5

a)




3,17 - 3,25 - 3,23

b)




5,028 - 5,037 - 5,043

c)

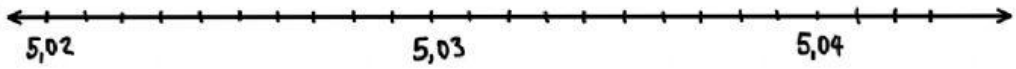


5,033 - 5,025

Canal: enseñando matemáticas online

LIVEWORKSHEETS

2.

3. Escribe el número decimal correspondiente en los espacios en blanco. Escribe la coma decimal.

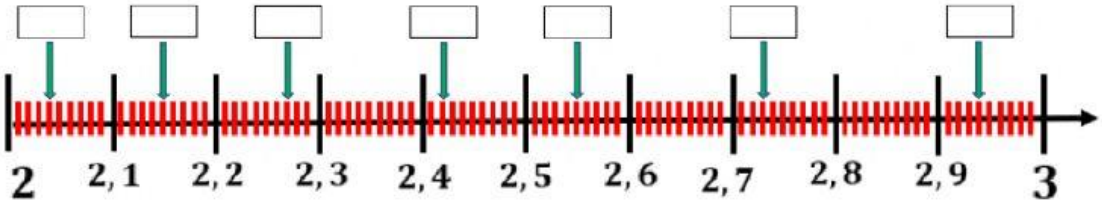


Canal: enseñando matemáticas online

LIVEWORKSHEETS