Clasificación de ángulos

1 Utiliza el transportador y escribe la medida de cada ángulo. Después, relaciona.

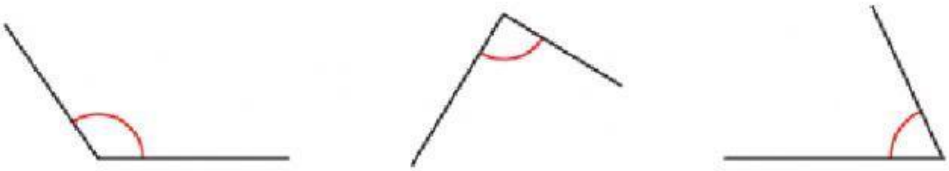

Recto | Agudo | Obtuso | Llano | Completo

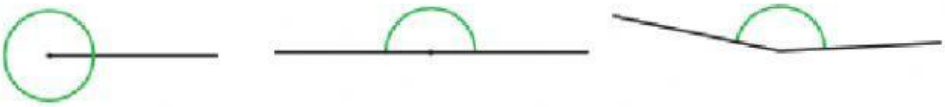

2 Mide con el transportador los ángulos y clasifícalos.

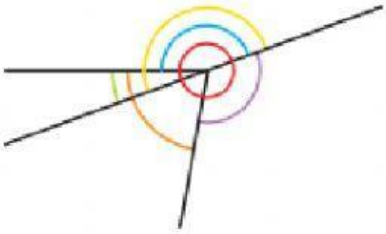

▸ ▸

▸ ▸

▸ ▸

4 Mide cada ángulo y contesta.

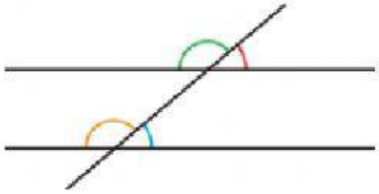

- ¿De qué tipo es el ángulo rojo? ¿Y el azul?
- ¿De qué tipo es el ángulo verde? ¿Y el naranja?

LIVEWORKSHEETS

Tipos de ángulos

1 **Clasifica estos ángulos en consecutivos, adyacentes u opuestos por el vértice. Después, mide cada ángulo con un transportador.**

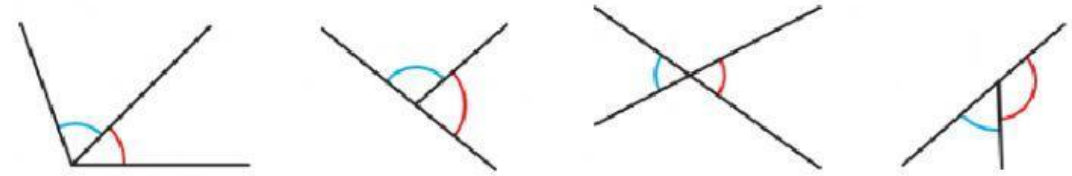

▶ mide _____ ▶ mide _____ ▶ mide _____ ▶ mide _____

▶ mide _____ ▶ mide _____ ▶ mide _____ ▶ mide _____

Observa la figura y escribe cómo son los ángulos que se indican.

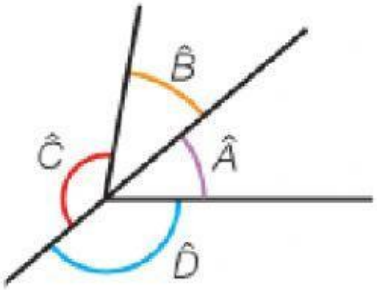

- Los ángulos $\hat{A}$ y $\hat{B}$ ▶
- Los ángulos $\hat{B}$ y $\hat{C}$ ▶
- Los ángulos $\hat{C}$ y $\hat{D}$ ▶
- Los ángulos $\hat{D}$ y $\hat{A}$ ▶

LIVEWORKSHEETS