Zadanie 31. *(2 pkt)*
Na mapie zaznaczono wybrane parki narodowe w Polsce.

Spośród zaznaczonych na mapie parków narodowych Polski wybierz i zapisz po dwa przykłady tych, które charakteryzują się podanymi cechami.

- Osobliwością każdego z parków są formy krasowe, malownicza dolina rzeki, endemiczne gatunki roślin.

Parki: ....., ...

- Do najważniejszych walorów parków należą rozległe obszary podmokłe, bagna i torfowiska, stanowiące siedlisko dla ptactwa wodnego.

Parki: ....., ...

LIVEWORKSHEETS

Na mapie zaznaczono wybrane parki narodowe w Polsce.

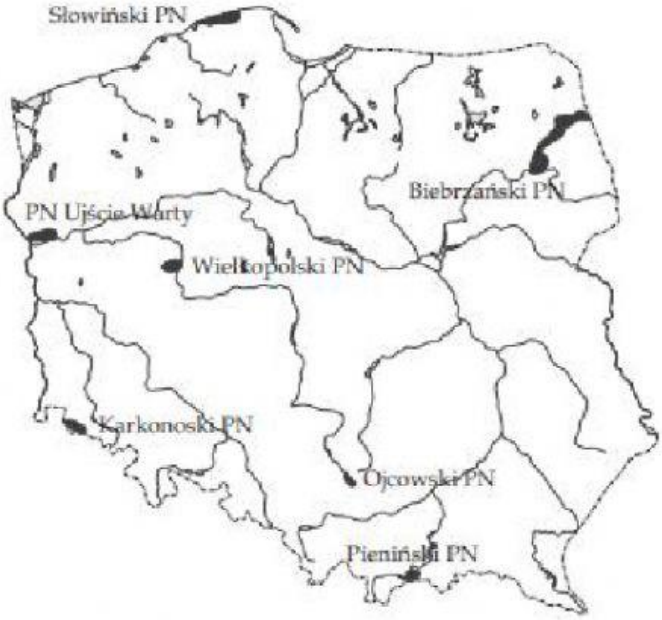

Spośród zaznaczonych na mapie parków narodowych Polski wybierz i zapisz po dwa przykłady tych, które charakteryzują się podanymi cechami.

1. Osobliwością każdego z parków są formy krasowe, malownicza dolina rzeki, endemiczne gatunki roślin.
2. Do najważniejszych walorów parków należą rozległe obszary podmokłe, bagna i torfowiska, stanowiące siedlisko dla ptactwa wodnego.

Aktywni

LIVEWORKSHEETS

Na mapie zaznaczono literami X i Y wybrane parki narodowe Polski, a linią zasięg jednego ze zlodowaceń.

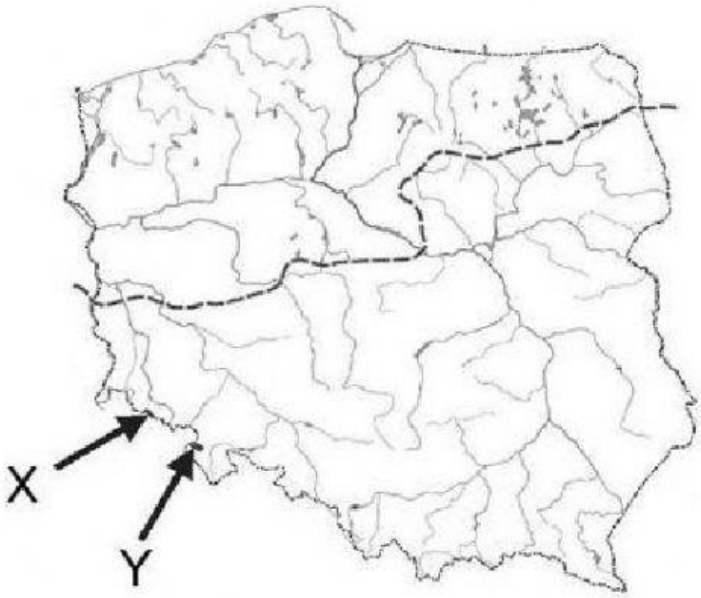

Na podstawie: A. Richling, K. Ostaszewska, *Geografia fizyczna Polski*, Warszawa 2009.

Poniżej przedstawiono opisy (A–C) wybranych parków narodowych Polski, w tym odnoszące się do parków narodowych oznaczonych na mapie literami X i Y.

A. Park narodowy chroni fragment rozległego, wyraźnie wyodrębnionego pasma górskiego zbudowanego z piaskowców wieku kredowego. Najwyższe wzniesienie tego pasma nie przekracza 1000 m n.p.m. Na uwagę zasługują urozmaicone formy wietrzeniowe.

B. Park narodowy obejmuje pasmo górskie zbudowane z fliszu, wypiętrzone podczas orogenezy alpejskiej. Najwyższy szczyt pasma wznosi się na wysokość 1725 m n.p.m. Stoki północnej części chronionego masywu są bardziej strome niż południowe.

C. Park narodowy obejmuje pasmo górskie o trzonie zbudowanym z karbońskich granitów. Masyw jest podzielony licznymi uskokami i spękaniami. W rezerwatach przyrody znajdują się m.in. kotły polodowcowe i granitowe skałki.

Uzupełnij tabelę:

- **dobierz właściwe opisy (A, B lub C) do parków narodowych oznaczonych na mapie literami X i Y;**
- **podaj nazwy obu parków narodowych.**

Park narodowy	Opis parku narodowego (wpisz literę A, B lub C)	Nazwa parku narodowego
X		
Y		

LIVEWORKSHEETS

Zadanie 30. *(2 pkt)*

Na mapie zaznaczono literami od A do H położenie wybranych parków narodowych w Polsce.

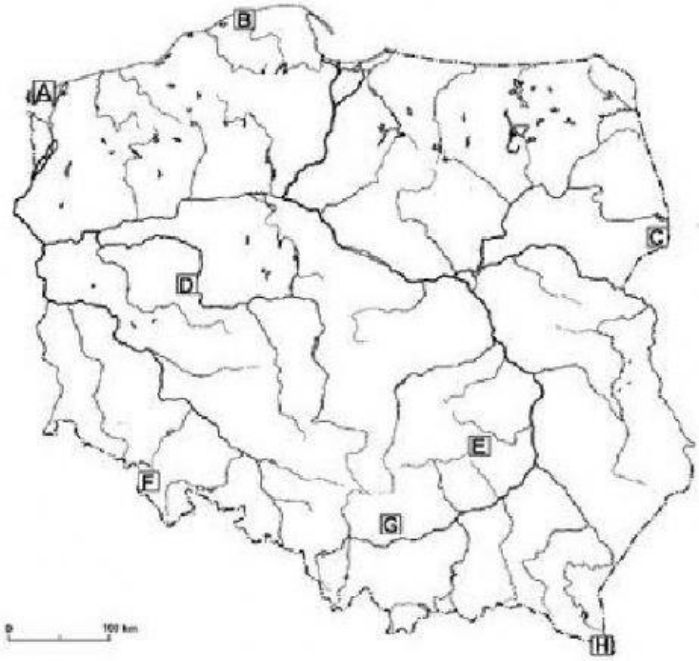

Rozpoznaj parki narodowe na podstawie charakterystycznych elementów ich środowiska przyrodniczego. Wpisz do tabeli nazwy tych parków oraz litery, którymi oznaczono ich położenie na mapie.

Lp.	Charakterystyczne elementy środowiska przyrodniczego parku narodowego	Nazwa parku narodowego	Litera na mapie
1	– ostańce krasowe wyrzeźbione w wapieniach, np. Maczuga Herkulesa – jaskinie		
2	– skały fliszowe – połoniny powyżej górnej granicy lasu		
3	– wydmy ruchome – jeziora przybrzeżne		

LIVEWORKSHEETS

Zadanie 37. ***(3 pkt)***
Na mapie numerami 1–6 oznaczono wybrane parki narodowe Polski.

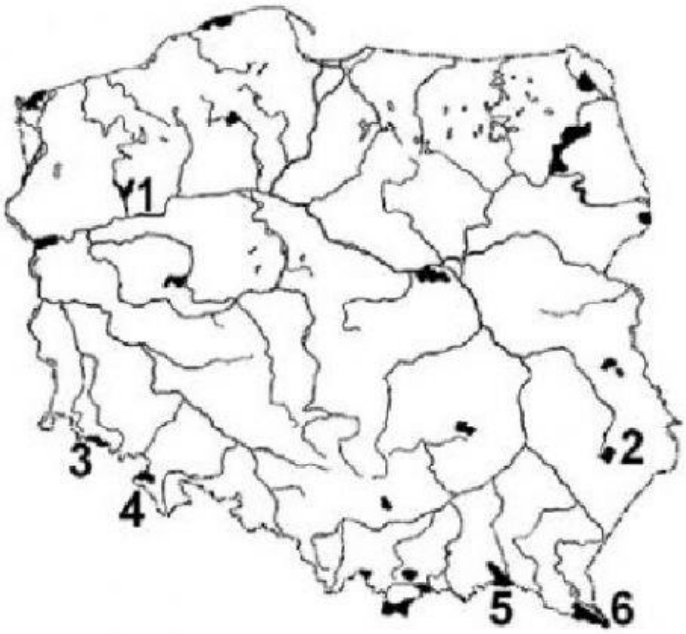

W poniższej tabeli przedstawiono opisy parków narodowych.

a) Uzupełnij tabelę, wpisując nazwy opisanych poniżej parków narodowych oraz numery, którymi te parki oznaczono na mapie.

Opis parku narodowego	Nazwa parku narodowego	Numer parku narodowego na mapie
Obszar parku obejmuje pasmo górskie zbudowane z piaskowców i margli, w którym występują ciekawe formy – ostańce i labirynty skalne.		
Obszar parku obejmuje równiny sandrowe, jeziora polodowcowe i torfowiska.		
Na obszarze parku charakterystycznymi elementami krajobrazu są połoniny, dolina Sanu, łagodne stoki gór.		
Obszar parku obejmuje mało przekształcone zbiorowiska leśne, przez które przepływa Wieprz.		

b) Podaj numer, którym oznaczono park narodowy położony na obszarze

– Beskidu Niskiego .....

– Karkonoszy .....

LIVEWORKSHEETS