Ciencias Naturales
Liceo Comercial de Quillota

ACTIVIDAD FORMATIVA

CROMOSOMAS Y CARIOTIPO HUMANO

I.- Rotule el cromosoma arrastrando la etiqueta al lugar que corresponde:

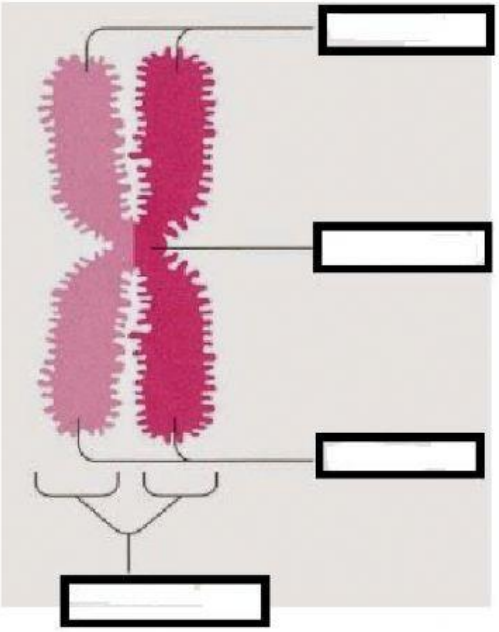

CENTROMERO

CROMATIDAS HERMANAS

TELOMEROS

TELOMEROS

II.- Arrastre la etiqueta del tipo de cromosoma al que le corresponda:

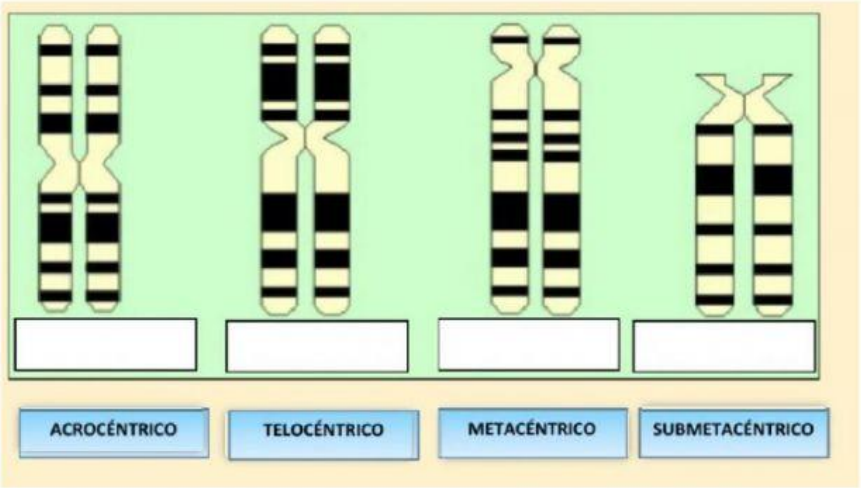

LIVEWORKSHEETS

Ciencias Naturales
Liceo Comercial de Quillota

III.- Observe el cariotipo y responda:



1.- ¿Cuántos pares de cromosomas tiene la especie humana?

46	22	23

2.- ¿Cuántos pares de cromosomas son autosómicos?

2	22	23

3.- ¿Cuántos pares de cromosomas son sexuales?

2	22	23

4.- ¿Este cariotipo pertenece a?

HOMBRE	MUJER

LIVEWORKSHEETS