إيجادالكل بمعلومية الجزء والنسبة المئوية

29 ما العدد الذي 30% منه يساوي 60 ؟

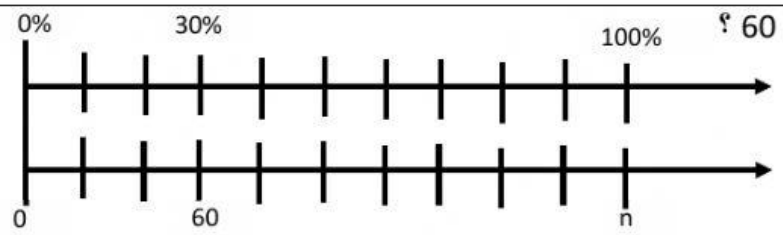

n = ☐

30 مال العدد الذي 500% منه يساوي 250 ؟

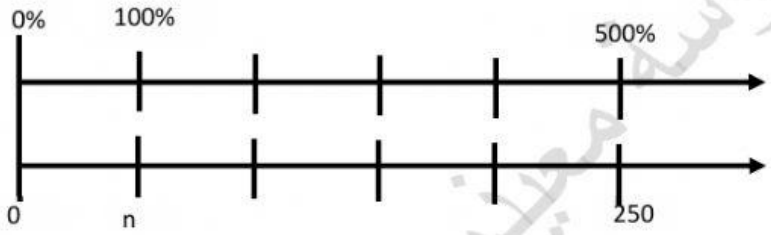

n = ☐

31 ما العدد الذي 0.5% منه يساوي 2 ؟

$0.005 \times y =$ ☐

$0.005 \times y =$ ☐

$y =$ ☐

خاص بمدرسة معيذر الابتدائية للبنين

LIVEWORKSHEETS

32	إذا كان عدد الطلبة الذين يفضلون كرة القدم هو 6 طلاب ، انظر الى التمثيل المجاور ، ثمّ أوجد عدد الطلاب في هذا الصف ؟ 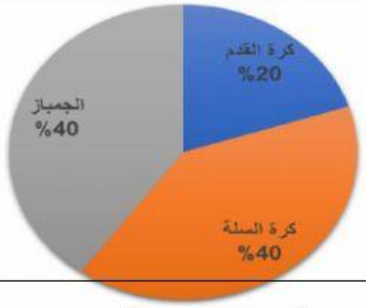

$0.2 \times y =$ ☐

$0.2 \times y =$ ☐

☐ ☐

$y =$ ☐

33	ما العدد الذي 60% منه يساوي 24
A	4
B	40
C	400
D	4000
34	ما العدد الذي 70% منه يساوي 28
A	4
B	40
C	400
D	4000
35	دفع محمد 40% من مصروفه على الأكل ، ويبلغ مقدار مادفعه على الاكل QR 5 ، كم مصروف محمد ؟

$0.4 \times y =$ ☐

$0.4 \times y =$ ☐

☐ ☐

$y =$ ☐

خاص بمدرسة معيذر الابتدائية للبنين

LIVEWORKSHEETS