113.orria

2.-Xabierrek eta Begoñak inkesta bate gin dute beren ikastetxeko 650 ikasleen artean. 60 ikaslez osatutako lagin bat aukeratu dute galderak egiteko. Emaitza hauek atera dituzte.

Gehien gustatzen den kirola		Maizt. absolutua	Maizt. erlatiboa %
Atletismoa	A	3	
Saskibaloia	B	15	
Futbola	C	30	
Igeriketa	D	12	

Esan honako barra diagrama hauetako datuak egokiak diren edo ez.

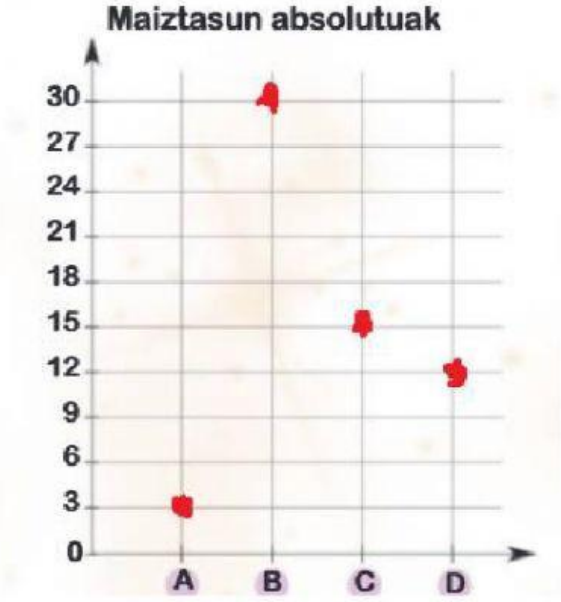

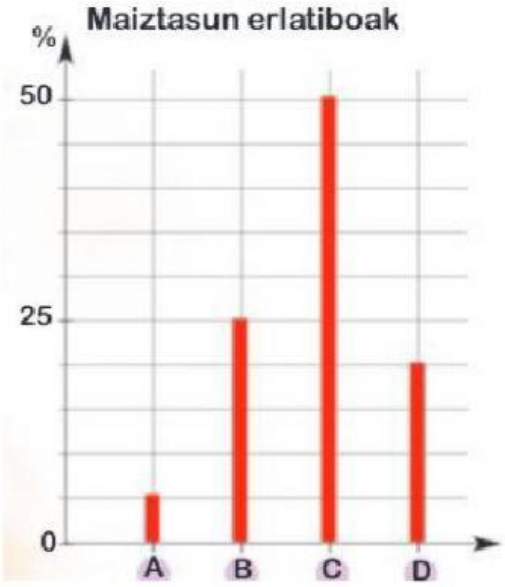

Bai Ez

Bai Ez

LIVEWORKSHEETS

3.-Autoetarako bateriak egiten dituen fabrika batek bere ekoizpenaren erakusgarri batekin proba bate gin zuen, eta emaitzen grafiko hau atera zitzaion

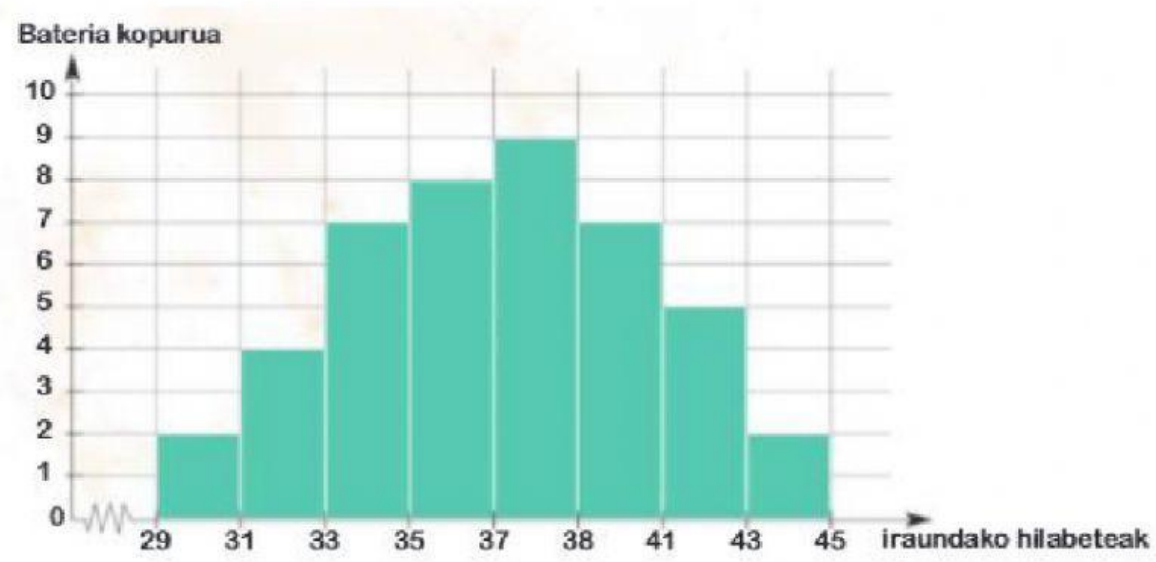

- Zenbat bateria probatu zituen fabrika honek?

- Zoritxarreta andreak, 4 urte egin ditu dagoeneko fabrika horretako bateria horrekin, zer gerta dakioke?

a) Bateria berria oparituko diote.
b) Denbora gutxi barru bateria huts egiten hasiko zaio.
c) Bateriak oraindik beste 4 urte iraungo dio gutxienez.
d) Bateria izorratu egin zaio dagoeneko.

LIVEWORKSHEETS