Nama : _____ **Kelas** : **2C**

Jawablah pertanyan-pertanyaan di bawah ini!

1. Sebuah kue dibagi menjadi ____ bagian yang sama.

   1 bagian bertanda X menyatakan pecahan ____ .

2. Banyak kue ada ____ .

   1 kue bertanda tanda X menyatakan pecahan ____ .

3. Sebuah kue dibagi menjadi ____ bagian yang sama.

   1 bagian bertanda X menyatakan pecahan ____ .

4. Banyak kue ada ___ .

   1 kue bertanda tanda X menyatakan pecahan ___ .

5. Sebuah kue dibagi menjadi ___ bagian yang sama.

   1 bagian bertanda X menyatakan pecahan ___ .

6. Banyak kue ada ___.

   1 kue bertanda tanda X menyatakan pecahan ___ .

LIVEWORKSHEETS

Coba nyatakan dengan pecahan banyaknya roti yang dimakan tikus atau kucing!

$\frac{1}{2}$ ■ □



$\frac{1}{3}$ ■ □



$\frac{1}{4}$ ■ □



LIVEWORKSHEETS