		Nilai	Paraf Ortu
INSAN KAMIL	**SDIT INSAN KAMIL SIDOARJO** **LEMBAR TUGAS SEMESTER 2 TAHUN PELAJARAN 2020/2021** **Nama Lengkap : .....** **Kelas : IV ...** **Hari/Tanggal : ... / ... 2021** **Mata Pelajaran : Matematika / Sudut**		

Bismillaahirrohmaanirrohiim

KERJAKAN SOAL-SOAL BERIKUT DENGAN BENAR!

1. **Pasangkan gambar sudut dengan jenis sudutnya dengan menarik jenis sudut ke gambar sudut !**

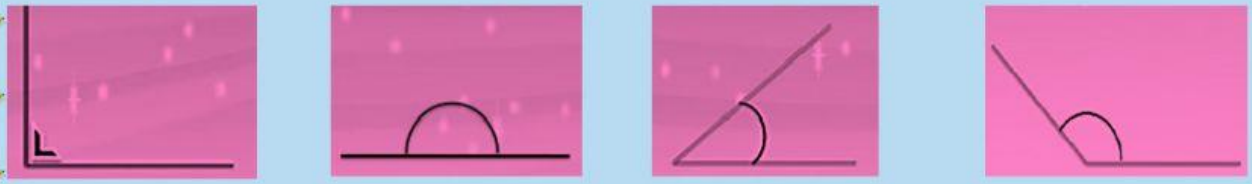

Sudut lancip | Sudut tumpul | Sudut siku-siku | Sudut lurus

2. **Hubungkan dengan garis, gambar setiap sudut dengan besarnya sudut yang sesuai !**

Besar sudut 180°

Besar sudut antara 0° dan 90°

Besar sudut antara 90° dan 180°

Besar sudut 90°

LIVEWORKSHEETS

3. **Tuliskan besar sudut-sudut berikut dengan melihat ukuran sudut yang tertera pada busur derajat!**

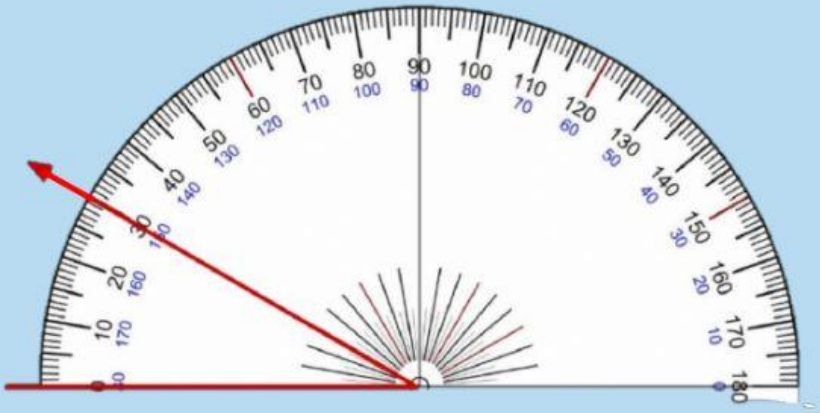

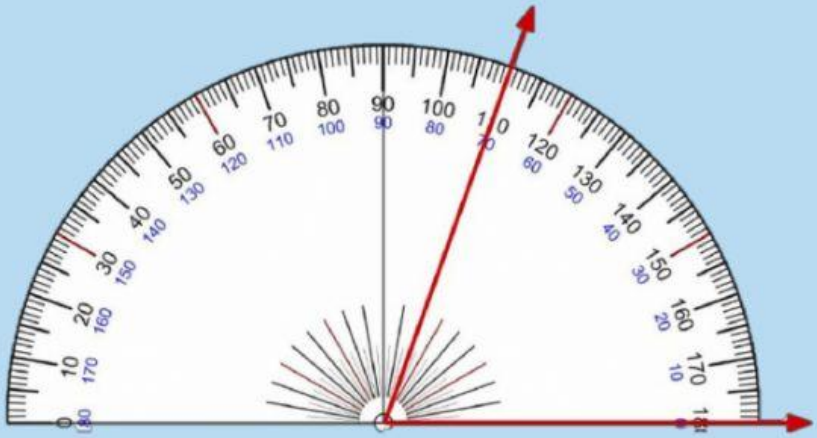

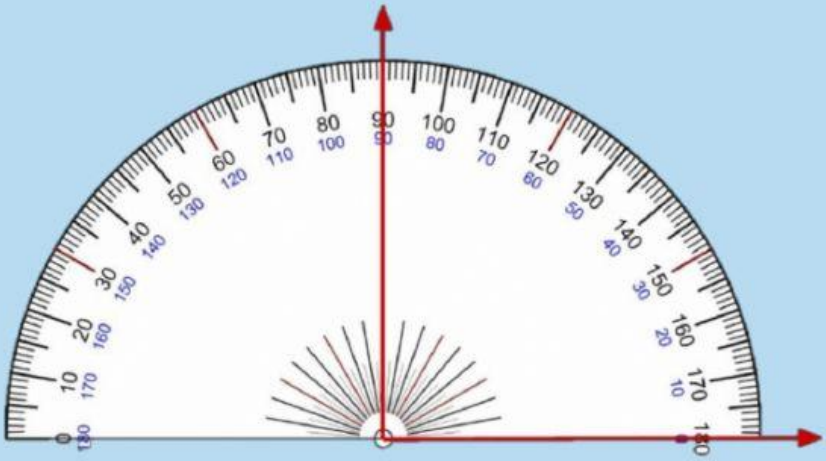

LIVEWORKSHEETS

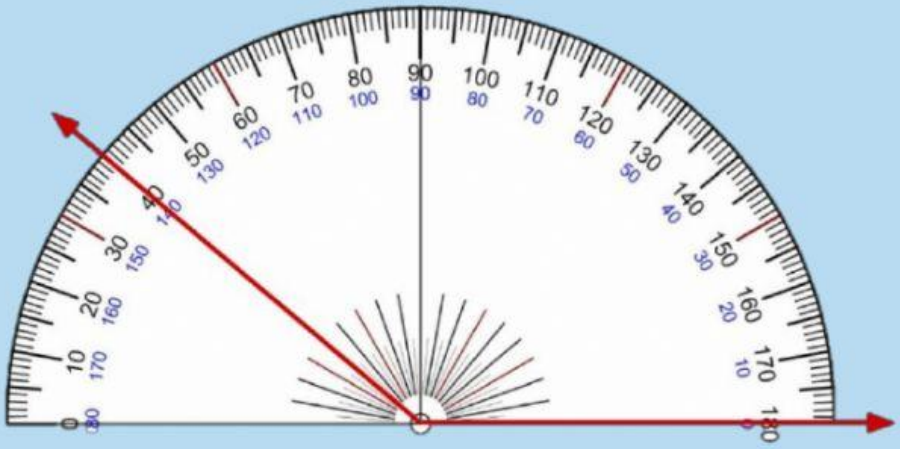

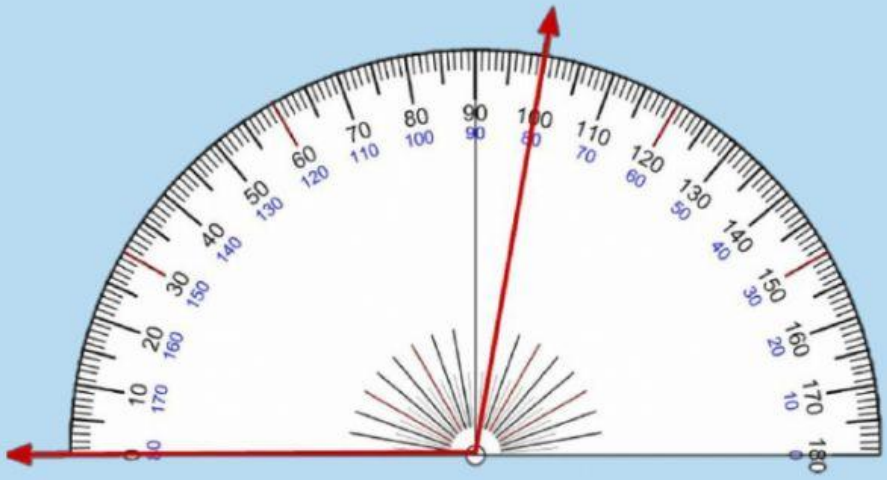

LIVEWORKSHEETS

4. **Pilihlah penggunaan sudut yang sesuai dengan gambar!**

Alhamdulillahirobbil'alamiin

LIVEWORKSHEETS