ESTADOS DE LA MATERIA

<u>Unir</u> cada imagen con el nombre de su estado

GASEOSO

LÍQUIDO

SÓLIDO

<u>Colocar</u> debajo de cada imagen de las partículas, a qué estado hace referencia.





Cada estado de la materia tiene sus **propias características**.

<u>Selecciona</u> las características de cada estado de la materia.



GASEOSO

LÍQUIDO

SÓLIDO

<u>Seleccionar</u> la opción correcta.

Martín, colocó agua en el freezer. Al día siguiente fue a buscarla.
¿Qué sucedió con el agua?

SE EVAPORÓ

SE SOLIDIFICÓ

Romina, compró un helado. Lo dejó por unos minutos en la mesa mientras ella preparaba la comida.
¿Qué le sucedió al helado? (cambio de estado)

FUSIÓN

SE EVAPORÓ

El ***ciclo del agua*** cuenta con cuatro momentos.

Arrastra cada uno de las siguientes palabras a la imagen de acuerdo a los momentos.

EVAPORIZACIÓN

CONDENSACIÓN

INFILTRACIÓN

PRECIPITACIÓN