محيط مضلع

اسم الطالبة:

الصف:

فراشتي الجميلة :اختاري الإجابة الصحيحة فيما يلي :

محيط الشكل المجاور يساوي؟

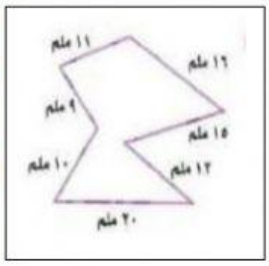

أ) ٩٥ملم

ب) ٩٣ ملم

ج) ١٠٠ ملم

د) ٨٧ ملم

محيط المثلث المجاور يساوي؟

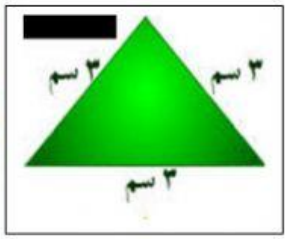

أ) ٩سم

ب) ٢٧ سم

ج ١٠ سم

د) ٨ سم

محيط المستطيل المجاور يساوي؟

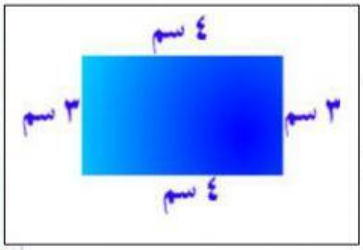

أ) ١٢سم

ب) ١٦ سم

ج ٢٠ سم

د) ١٤ سم

بارك الله جهودك فراشتي الصغيرة

معلمة المادة :علوية مدرجي

LIVEWORKSHEETS