Sesión 2: Número de cinco cifras.

Representa. José y Ricardo fueron al estadio a ver el clásico del fútbol peruano. Ese día asistieron 24 719 espectadores. ¿Qué valor tiene cada cifra de este número?

- Representamos el número 24 719 en el ábaco y en el tablero posicional. Luego, descomponemos.

DM	UM	C	D	U
2	4	7	1	9

Veinticuatro mil — setecientos diecinueve

24 719 = 2 D millar + 4 U millar + 7 centenas + 1 decena + 9 unidades

24 719 = 2 DM + 4 UM + 7 C + 1 D + 9 U = 20 000 + 4 000 + 700 + 10 + 9

Los **números de cinco cifras** se descomponen en decenas de millar, unidades de millar, centenas, decenas y unidades.

Nivel I

1 Escribe cada número representado en los ábacos y su descomposición.

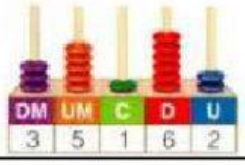

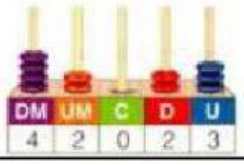

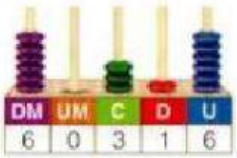

2 Lee y marca cada número indicado

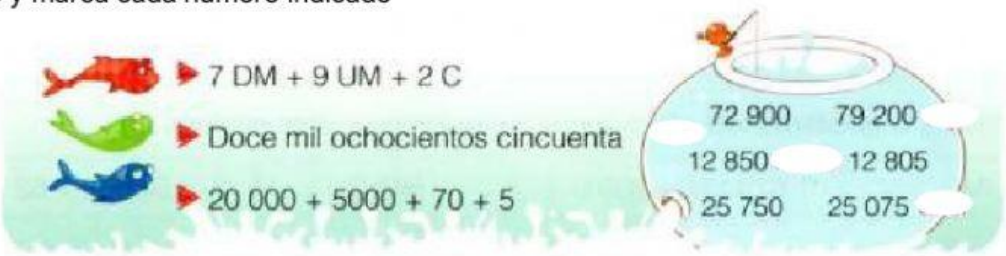

LIVEWORKSHEETS

Nivel II

3 Estas son algunas de las entradas disponibles que quedan para el festival Rock 15.

a) ¿Qué valor representa el 5 en la entrada de color verde? ¿Y en la de color violeta?

b) La entrada de Luisa tiene el mayor número que se puede armar con las cifras que figuran en la entrada de color violeta. ¿De qué número se trata?

4 Representa en el ábaco el número que se indica. Luego, responde.

20 000

¿Cuántas UM contiene?

¿Y cuántas centenas?

14 000



¿Cuántas UM contiene?

¿Y cuántas decenas?

5 Descubre qué número de cinco cifras piensa cada uno.

- *La cifra de las centenas y la decena de millar es 7.*
- *La suma de todas sus cifras es 14.*



- *Tienes 3 decenas de millar.*
- *De izquierda a derecha las cifras son números consecutivos.*

Desafío

Con los números de las fichas escribe un número que cumpla las siguientes condiciones:

- Está entre 60 000 y 70 000.
- Es un número impar.
- La cifra de las centenas es el doble de la cifra de las decenas.

2 4 3 1 6

LIVEWORKSHEETS