GUÍA DE TRABAJO.

1. Marca con una X en cada par de torres la que corresponde al número menor.

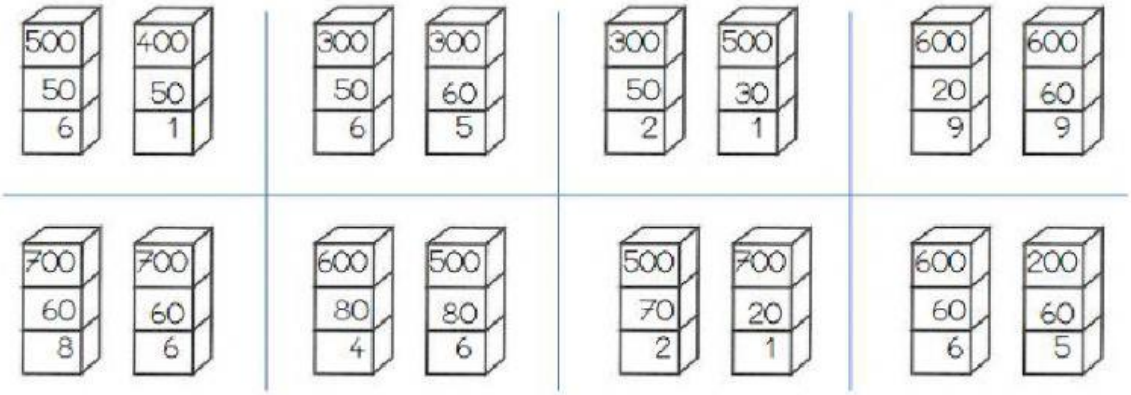

2. Recuerda.

3 < 15
3 es menor que 15

Completa con el signo que corresponde: **<, > o =.**

365 635	75 111	121 201
152 149	509 59	961 947
956 865	578 725	299 309

3. Ordena los números en forma creciente.

655 - 816 - 565 - 154 - 96 - 810 - 500

LIVEWORKSHEETS

4. Ubica los siguientes números en la recta numérica.

100	150	120	110	130

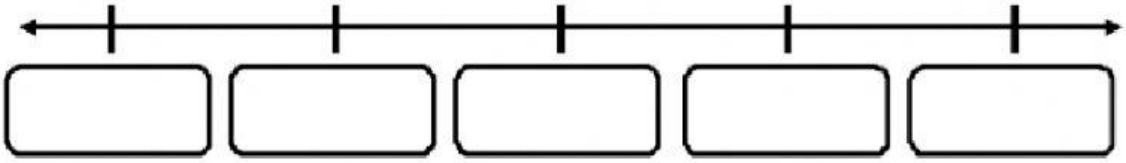

500	700	400	200	300

5. Gradúa y ubica los siguientes números.

80	100	90	70	110

125	135	120	115	130

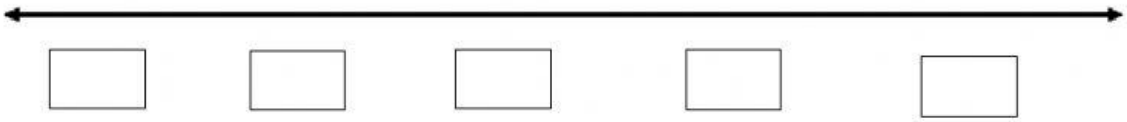

LIVEWORKSHEETS