Selecciona el número que representa el gráfico.



- 73
- 63
- 78
- 37

Selecciona la lectura del número que representa el gráfico.

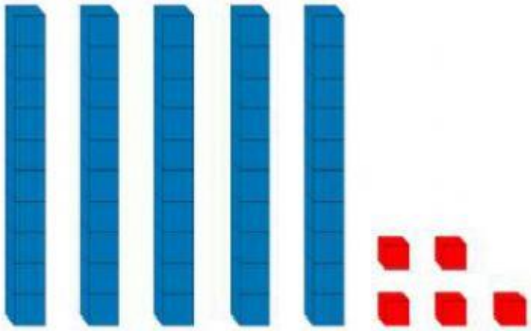

- setenta y seis
- sesenta y siete
- cincuenta y cinco

Escribe el número que corresponde a cada letra en la semirrecta numérica.

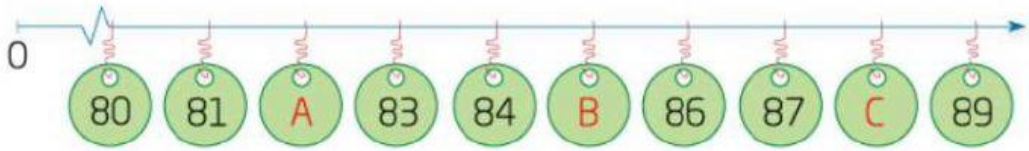

A	___	B	___	C	___

LIVEWORKSHEETS

Relaciona la representación con el número.



37



72



55

Escribe los números que faltan en la semirrecta numérica.

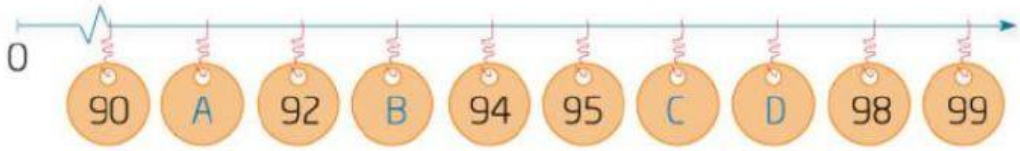

A	____	B	____	C	____	D	____

LIVEWORKSHEETS

Observa la semirrecta numérica. Luego, **relaciona** cada animal con la lectura del número en el que está ubicado.

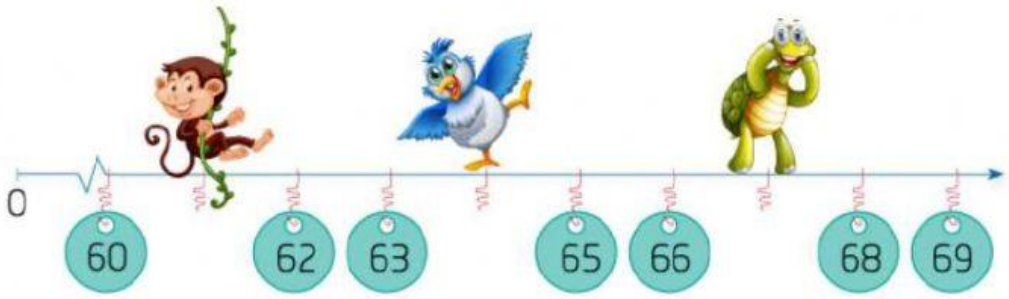

sesenta y cuatro

sesenta y siete

sesenta y uno

LIVEWORKSHEETS

Observa la semirrecta numérica y **responde** V (verdadero) o F (falso) para cada afirmación.

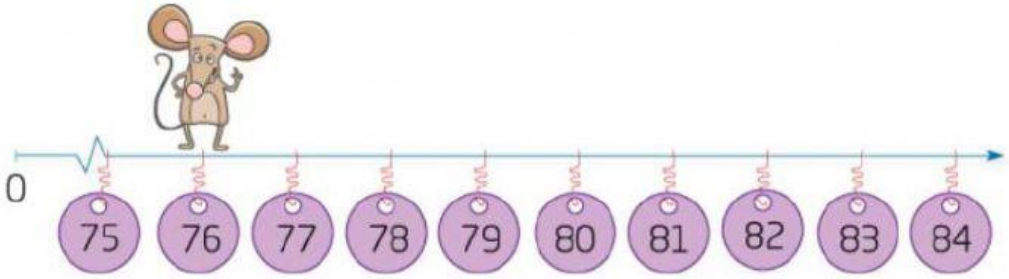

El grillo está en el número 76 y tiene que dar 4 saltos para llegar al número 80. ◯ V ◯ F

Cuando el grillo llegue al número 80, dará dos saltos más y para llegar al número 83 . ◯ V ◯ F

Para llegar al número 84 desde 76, el grillo tendrá que dar 8 saltos. ◯ V ◯ F

LIVEWORKSHEETS