ΟΝΟΜΑ: _____

ΜΕΤΡΗΣΗ ΜΑΖΑΣ

ΗΜΕΡΟΜΗΝΙΑ: _____

- **Κύκλωσε τις προτάσεις που είναι σωστές:**

Ένα μολύβι ζυγίζει:

30 γραμμάρια 30 κιλά 30 τόνους

Ένα παιδί ζυγίζει:

30 γραμμάρια 30 κιλά 30 τόνους

Ένα φορτηγό με εμπόρευμα ζυγίζει:

30 γραμμάρια 30 κιλά 30 τόνους

Ένα ποδήλατο ζυγίζει:

8 γραμμάρια 8 κιλά 8 τόνους

Ένας ελέφαντας ζυγίζει:

7 γραμμάρια 7 κιλά 7 τόνους

- **Βάζω τα αντικείμενα στη σειρά, από το ελαφρύτερο στο βαρύτερο:**

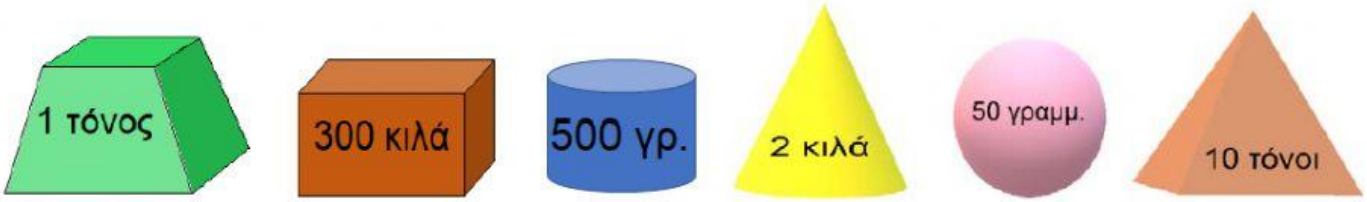

_____ < _____ < _____ < _____ < _____ < _____

LIVEWORKSHEETS

- **Τοποθετώ σωστά:**

1 κιλό	1.000 κιλά	1 τόνος
	500 κιλά	
μισό κιλό	1.000 γραμμάρια	μισός τόνος
	500 γραμμάρια	

- **Συμπληρώνω τις ισότητες:**

1 κιλό = ……. γρ.
2 κιλά = ……..…… γρ.
4.000 γρ. = …… κ.
1.000 κ. = …….. τόνος
5 κ. = …….. γρ.
5.000 κ. = ……. τ.

5.000 | 1 | 2.000 | 1.000 | 4 | 5

- **Επιλέγω τις εικόνες στις οποίες η ζυγαριά είναι σωστή:**

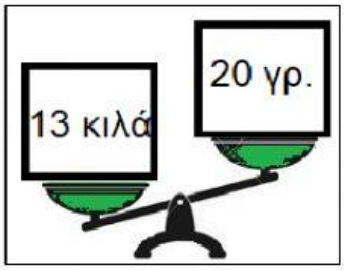

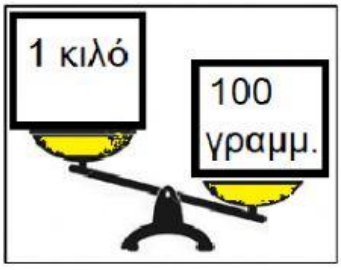

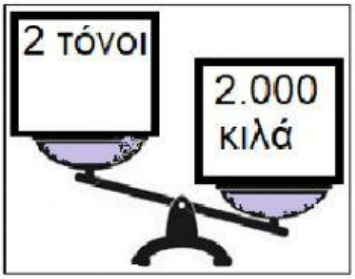

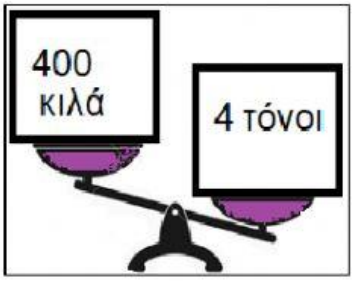

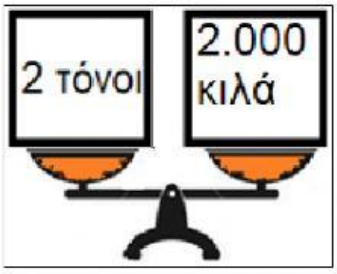

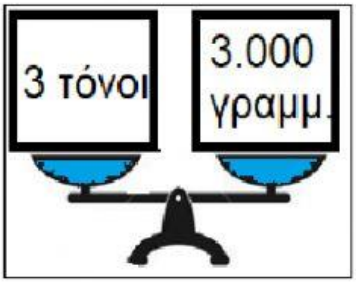

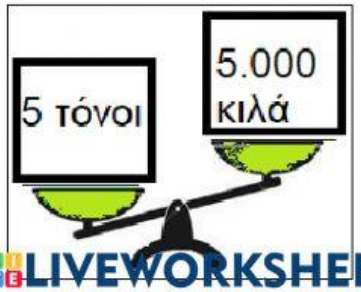

LIVEWORKSHEETS