어느 각이 더 클까요

공부한 날 월 일

1 피자 조각이 2개 있습니다. 두 피자 조각의 각 중에서 더 큰 각을 찾아 ○표 하세요.

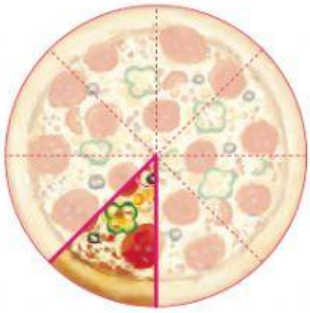

( )

( )

가위 순서로 순위를 매기시오 (1, 2, 3)

2 가장 크게 벌어진 가위에 ~~○표, 가장 작게 벌어진 가위에 △표 하세요.~~

( )



( )

( )

3 두 각 중에서 더 작은 각을 찾아 ○표 하세요.

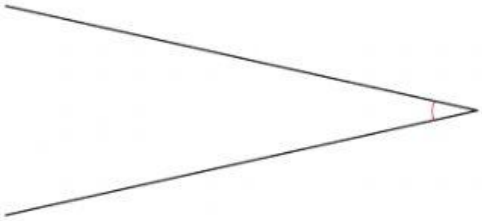

( )

( )

LIVEWORKSHEETS

4 각의 크기가 큰 순서대로 써 보세요.

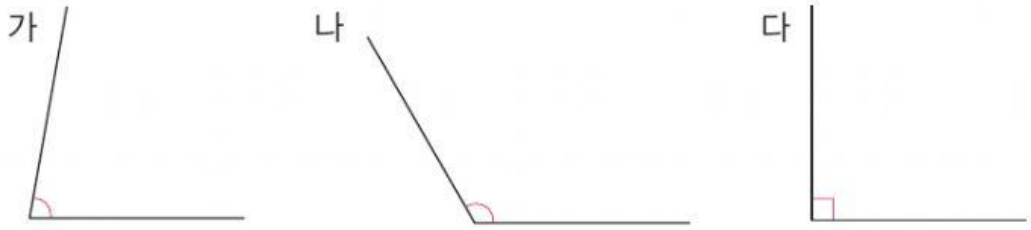

(　　)

5 세 각의 크기를 비교해 보세요.



답 : 아래

6 지혜, 슬기, 수일이는 뾰족한 지붕이 있는 집을 그렸습니다. 지붕 위쪽의 각의 크기를 바르게 비교한 사람은 누구인지 써 보세요.

지혜

수일이가 그린 지붕 위쪽의 각의 크기가 가장 커.

슬기

세 지붕 위쪽의 각의 크기는 모두 같아.

수일

지혜가 그린 지붕 위쪽의 각의 크기가 가장 작아.

(　　)

LIVEWORKSHEETS