01) (M01036417) Observe abaixo a imagem de uma peça de brinquedo de montar.



A forma dessa peça lembra qual figura geométrica?

A) 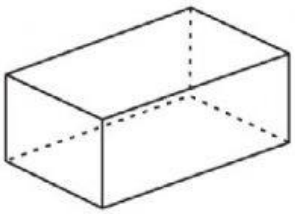

B) 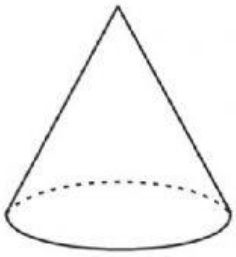

C) 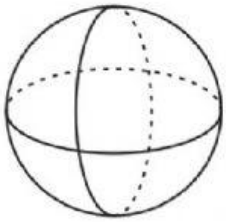

D) 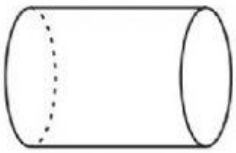

02) (M01009017) Observe os números no quadro abaixo.

5 – 9 – 3 – 7

Qual desses números é o menor?

A) 5

B) 9

C) 3

D) 7

LIVEWORKSHEETS

03) (M010426I7) Observe os instrumentos musicais abaixo.

Qual desses instrumentos musicais é o menor?

A) I

B) II

C) III

D) IV

04) (M020929H6) Observe abaixo a coleção de bonecas de pano de Fabiana.

Quantas bonecas de pano Fabiana tem, ao todo, nessa coleção?

A) 3

B) 5

C) 6

D) 7

LIVEWORKSHEETS

05) (M030015I7) Observe abaixo a imagem do espelho da sala de Mirela.

A forma desse espelho lembra qual figura geométrica?

A) 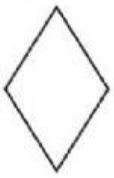

B) 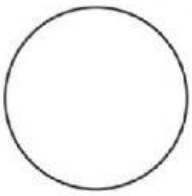

C)

D) 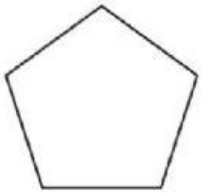

06) (M030063I7) Observe a reta numérica abaixo. Ela está dividida em partes iguais.

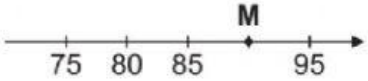

O ponto M representa qual número nessa reta?

A) 94

B) 90

C) 86

D) 84

LIVEWORKSHEETS

07) (M020485I7) Observe, na imagem abaixo, os horários das atividades que Naiara fez em um dia.

6 HORAS	7 HORAS	9 HORAS	14 HORAS	16 HORAS

De acordo com essa imagem, o que Naiara fez antes das 7 horas?

A)

B)

C)

D)

08) (M010674H6) Resolva a operação abaixo.

$$7 + 8 + 1$$

Qual é o resultado dessa operação?

A) 7

B) 9

C) 15

D) 16

LIVEWORKSHEETS

09) (M020234I7) Observe abaixo a sala da casa de Marina.



Qual é o objeto que está mais próximo da janela?

A)

B)

C)

D)

10) (M030449I7S) Mariana comprou 3 metros de fita para enfeitar uma caixa de presente. Quantos centímetros de fita Mariana comprou para enfeitar essa caixa de presente?

A) 3

B) 30

C) 300

D) 3000

LIVEWORKSHEETS

11) (M030030I7) Observe abaixo as figuras geométricas.

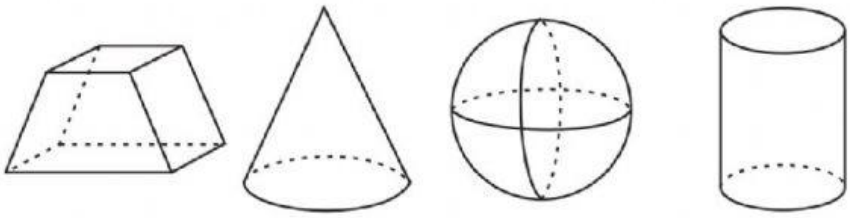

I II III IV

Qual dessas figuras é um poliedro?

A) I

B) II

C) III

D) IV

12) (M020126I7) Resolva a operação abaixo.

$$\begin{array}{r} 345 \\ +\ 223 \\ \hline \end{array}$$

Qual é o resultado dessa operação?

A) 122

B) 345

C) 457

D) 568

LIVEWORKSHEETS

13) (M010133E4) Janete usou as moedas abaixo para comprar uma lapiseira.

Quantos reais ela usou para comprar essa lapiseira?

A)

B)

C)

D)

14) (M020582H6) Roberta comprou 2 caixas de caramelo, com 5 balas em cada uma.
Quantas balas de caramelo Roberta comprou ao todo?

A) 5

B) 7

C) 10

D) 25

LIVEWORKSHEETS

15) (M030381I7) A viagem de Carmem será daqui a 5 meses.
Quantos dias faltam para essa viagem de Carmem?

A) 30 B) 50

C) 100 D) 150

16) (M030985H6) Resolva a operação abaixo.

35 – 17

Qual é o resultado dessa operação?

A) 18 B) 22

C) 35 D) 52

LIVEWORKSHEETS

17) (M010086H6) Observe as figuras geométricas desenhadas na malha quadriculada abaixo.

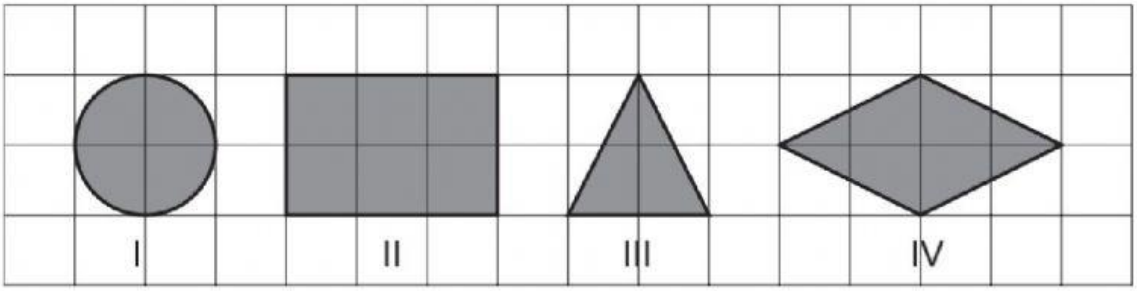

Qual dessas figuras é um retângulo?

A) IV

B) III

C) II

D) I

18) (M020526H6) Resolva a operação abaixo.

$$\begin{array}{r} 56 \\ -\ 23 \\ \hline \end{array}$$

Qual é o resultado dessa operação?

A) 33

B) 44

C) 56

D) 79

19) (M011247H6) Sofia comprou um apartamento no dia 20 de junho de 2010 e decidiu vender o apartamento depois de morar por exatos 7 anos.
Em qual data Sofia decidiu vender seu apartamento?

A) 13 DE JUNHO DE 2010.

B) 13 DE JUNHO DE 2017.

C) 27 DE JUNHO DE 2010.

D) 20 DE JUNHO DE 2017.

LIVEWORKSHEETS