Grupa **A** Klasa ..... Liczba punktów ..... / .....

Imię i nazwisko .....

1 W koszyku jest 27 owoców, w tym 5 gruszek, 4 jabłka i 2 pomarańcze. Jaką część wszystkich owoców stanowią gruszki, jaką część jabłka, jaką część pomarańcze, a jaką inne owoce?

a) gruszki $\frac{\square}{\square}$ b) jabłka $\frac{\square}{\square}$ c) pomarańcze $\frac{\square}{\square}$ d) inne $\frac{\square}{\square}$

2 Uzupełnij zdanie.

W ułamku $\frac{7}{9}$ licznikiem jest liczba _____, a mianownikiem – liczba _____.

3 Zapisz ułamek cyframi.

a) siedem ósmych $\frac{\quad}{\quad}$

b) dwie jedenaste $\frac{\quad}{\quad}$

c) siedemnaście dwudziestych trzecich $\frac{\quad}{\quad}$

4 Zapisz ułamek słowami.

a) $\frac{6}{10}$ _____

b) $\frac{13}{22}$ _____

5 Zapisz za pomocą ułamka, jaką część figury zamalowano na szaro.

a) 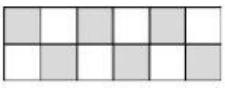

b) 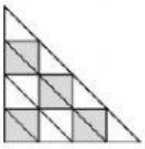

c) 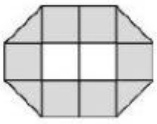

a) $\frac{\quad}{\quad}$ b) $\frac{\quad}{\quad}$ c) $\frac{\quad}{\quad}$

6 Wstaw w okienko odpowiedni znak (< lub >).

a) $\frac{3}{9} \square \frac{4}{9}$ b) $\frac{1}{6} \square \frac{1}{7}$ c) $\frac{1}{2} \square \frac{2}{10}$ d) $\frac{3}{4} \square \frac{2}{8}$

LIVEWORKSHEETS

7 Ułamek $\frac{18}{30}$ skróć:

a) przez 6, b) przez 3.

a) $\frac{\quad}{\quad} = \frac{\quad}{\quad}$ b) $\frac{\quad}{\quad} = \frac{\quad}{\quad}$

8 Ułamek $\frac{3}{7}$ rozszerz:

a) przez 2, b) przez 5.

a) $\frac{\quad}{\quad} = \frac{\quad}{\quad}$ b) $\frac{\quad}{\quad} = \frac{\quad}{\quad}$

LIVEWORKSHEETS