المملكة العربية السعودية
إدارة التعليم بمنطقة الرياض
مدارس ابن خلدون التعليمية

مدارس ابن خلدون

ورقة عمل

ورقة عمل علاجية	☐ الاختبار التشخيصي		☐الاختبار التكويني
المهارة	تحليل الرسوم		
اسم الطالب		الصف:	المادة: رياضيات
الأداء	أتقن ☺	لم يتقن ☹	

شرح المهارة

لاحظ الكرسي في الشكل المقابل فإن المنظر الأمامي والجانبي والعلوي هو:



امامي

جانبي

العلوي

التطبيق

مثال تحليل الرسوم

٦ أثاث: تبين الصورة المجاورة مقعدًا. ارسم المنظر العلوي والأمامي والجانبي لهذا المقعد.

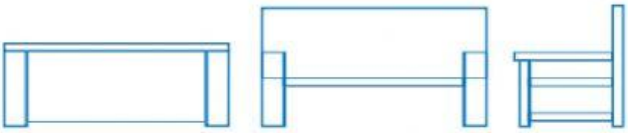

المنظر الجانبي المنظر الأمامي المنظر العلوي

التقييم

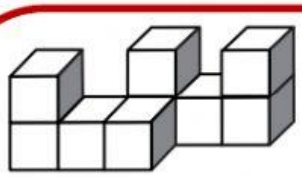

(١) المنظر الجانبي للمجسم في الشكل المجاور هو .....

أ		ب	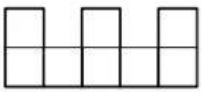	ج	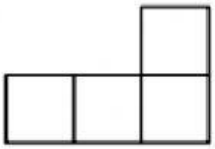	د	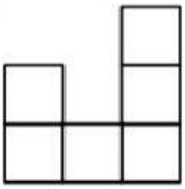

LIVEWORKSHEETS