COMPLETE A TABELA NUMÉRICA:

0									
	11								
		22							
			33						
				44					
					55				
						66			
							77		
								88	
									99

O QUE VOCÊ ACHA QUE É ORDEM CRESCENTE E DECRESCENTE DOS NÚMEROS?

PESQUISE E DESCUBRA O QUE É !

DEPOIS, ARRASTE OS NÚMEROS ABAIXO E SOLTE-OS NOS ESPAÇOS, ORGANIZANDO-OS EM ORDEM CRESCENTE.

38	60	9	16	58	13

LIVEWORKSHEETS

AGORA, ARRASTE OS NÚMEROS E SOLTE-OS NOS ESPAÇOS, PORÉM ORGANIZE-OS EM ORDEM DECRESCENTE.

38	60	9	16	58	13

OBSERVE O EXEMPLO: 15 E 51, TEM NÚMEROS IGUAIS. PORÉM TEM VALORES DIFERENTES.

AGORA ESCREVA:

QUAL É O MAIOR:_____

QUAL É O MENOR:-_____

SISTEMA DENUMERAÇÃO DECIMAL



LIVEWORKSHEETS

OBSERVE O VALOR DAS PEÇAS DO MATERIAL DOURADO.

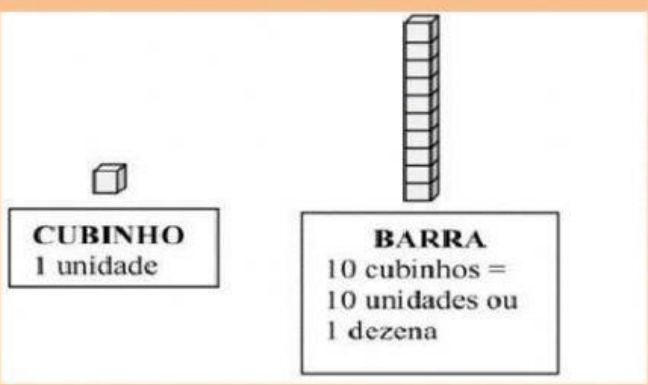

OLHE O EXEMPLO DA CONTINHA :



23 + 15 = 38

LIGUE O MATERIAL DOURADO NA CONTINHA CORRESPONDENTE.



33 + 25 = 58

18 + 10 = 28

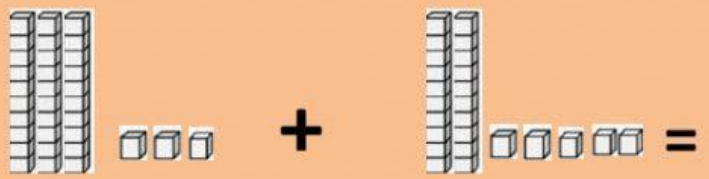

43+ 24= 67

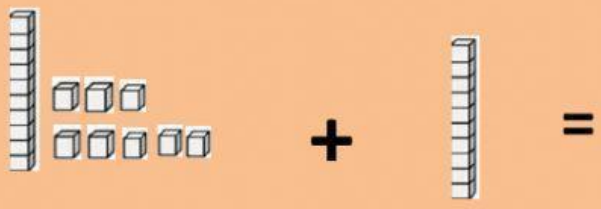

26 + 13 = 39

LIVEWORKSHEETS