درس / الانعكاس في المستوى الإحداثي

١- ما الشكل الذي يُمَثّل انعكاسًا من الأشكال التالية ؟

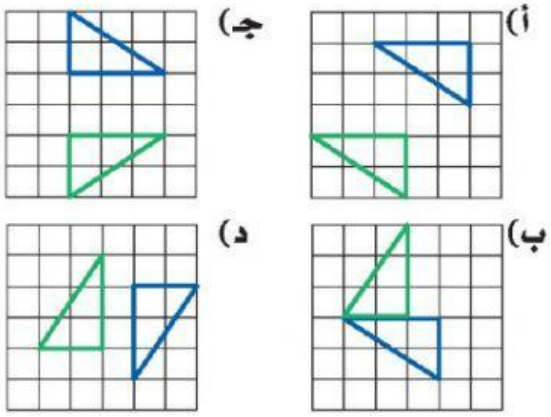

٢- ما الشكل الذي لا يُمَثّل انعكاسًا من بين الأشكال التالية ؟

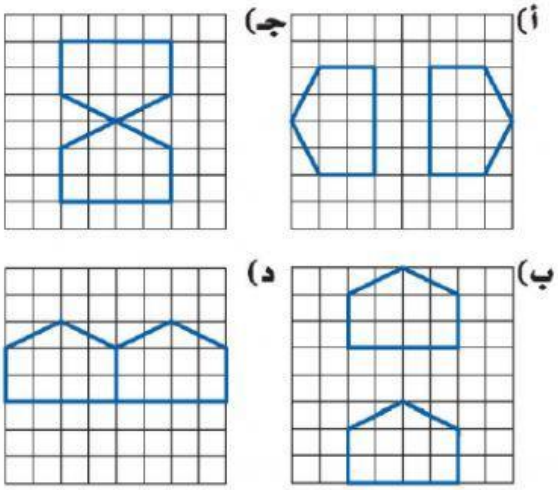

٣- عند انعكاس الشكل المجاور حول المحور ،

فإن الزوج المُرتب الذي يمثل صورة النقطة ب (بَ) هو :

A. (٣ ، ٣)

B. (٥ ، ٣)

C. (٣ ، ٦)

D. (٦ ، ٣)

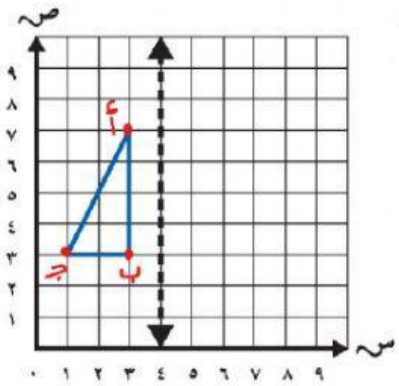

معلمتكِ : ساره آل سهيل

LIVEWORKSHEETS