اختبار الكتروني في مادة الرياضيات للصف السادس

اسم التلميذ ..... المدرسة .....

أسئلة الصواب والخطأ

1) عمر أحمد الآن س سنة عمره بعد 3 سنوات = 3س

○ صح ○ خطأ

2)اطرح 5 من ع في صورة مقدار جبري 5 - ع

○ صح ○ خطأ

3)مجموع زوايا الشكل الرباعي = 360°

○ صح ○ خطأ

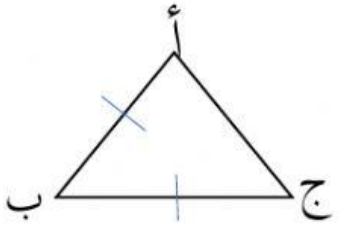

4) في المثلث أ ب ج زاوية أ = زاوية ج

○ صح ○ خطأ

LIVEWORKSHEETS

الاختبار من متعدد

1) قيمة المقدار الجبري 2 س + 4 عندما س = 3

أ) 10 ب) 30 ج) 36

2) حصل بدر على ع درجة في امتحان الرياضيات وحصلت فاطمة على ضعف هذه الدرجة . درجة فاطمة = ...

أ) ع + 2 ب) 2ع ج) 3ع

3) زاوية ج ب د = ...

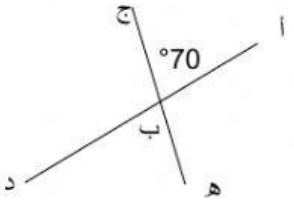

أ) °70 ب) °110 ج) °180

4) زاوية س = ...

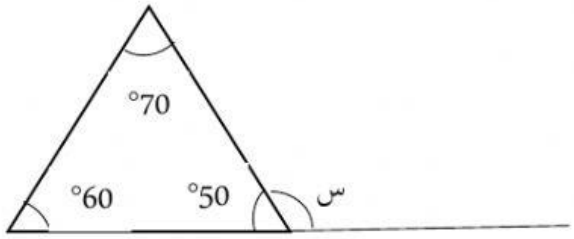

أ) °110 ب) °130 ج) °120

LIVEWORKSHEETS

المزاوجة

1

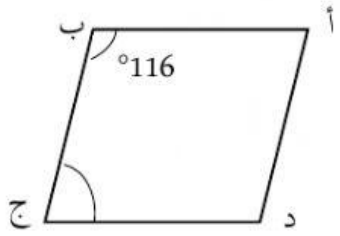

قياس زاوية ب ج د =.....

أ

4 س

2

اشترت عايدة حزاما ثمنه س دينار ومحفظة ثمنها 4 أمثال ثمن الحزام .كم دفعت عايدة ثمنا لهما ؟

ب

°116

3

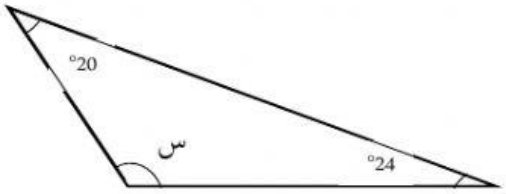

قياس زاوية س = ...

ج

5 س

4

6س – 2س = ...

د

°64

LIVEWORKSHEETS