1.12.26
§10 Перетворення графіків функцій

КАРТКА-ЗАВДАННЯ • Графіки функцій (Вправа 10.3)

З'єднай стрілкою кожну функцію ліворуч із її графіком праворуч та запиши літери в таблицю

ФУНКЦІЇ

1. $y = x$
2. $y = x + 2$
3. $y = x - 3$
4. $y = |x|$
5. $y = |x - 1|$
6. $y = |x + 3|$

ГРАФІКИ ФУНКЦІЙ

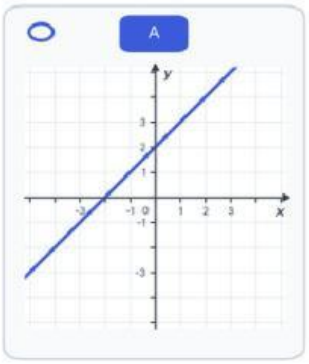

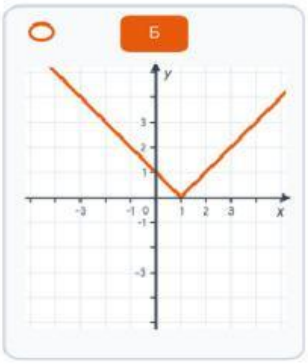

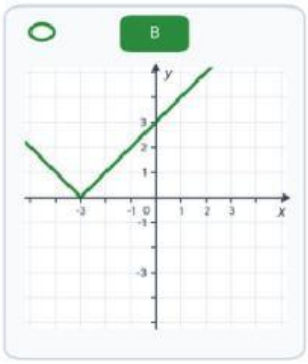

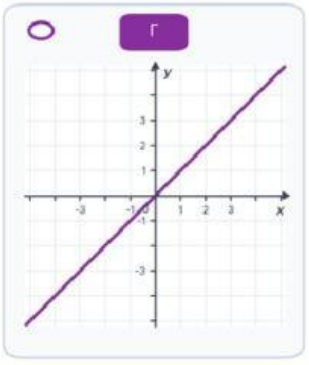

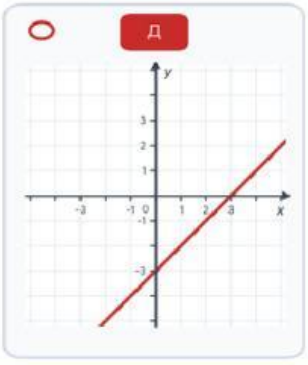

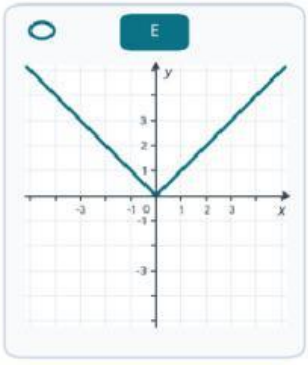

ТВОЇ ВІДПОВІДІ: 1 — 2 — 3 — 4 — 5 — 6 —

З'ЄДНАЙ КОЖЕН ГРАФІК ІЗ ВІДПОВІДНОЮ ФОРМУЛОЮ (Вправа 10.5)

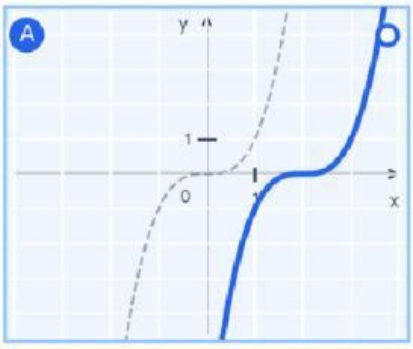

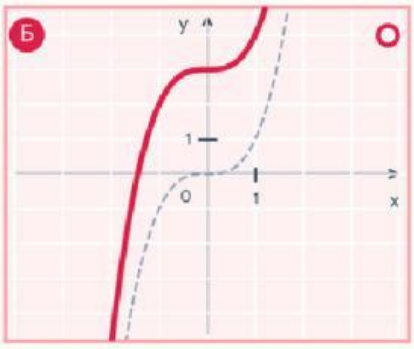

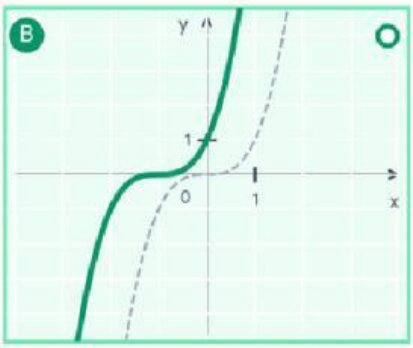

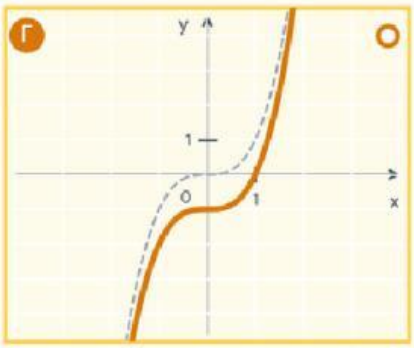

1) $y = x^3 + 3$

2) $y = x^3 - 1$

3) $y = (x - 2)^3$

4) $y = (x + 1)^3$

LIVEWORKSHEETS