GEOMETRÍA: TIPOS DE ÁNGULOS

1. Coloca el nombre y la definición de estos triángulos según sus lados.

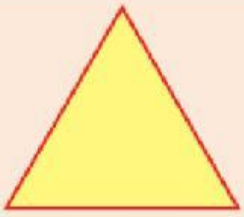		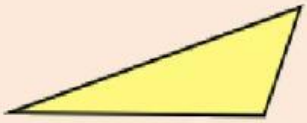
Escaleno	Isósceles	Equilátero
Tiene 2 lados iguales	Tiene los 3 lados diferentes	Tiene los 3 lados iguales

LIVEWORKSHEETS

2. Coloca el nombre y la definición de estos triángulos según sus ángulos.

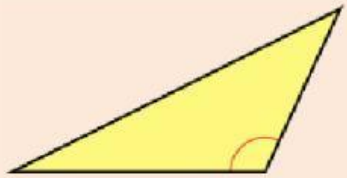	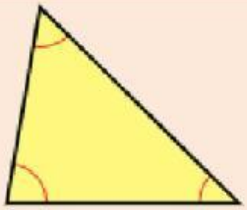	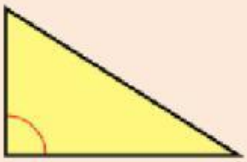
Rectángulo	Obtusángulo	Acutángulo
Tiene 3 ángulos agudos	Tiene 1 ángulo recto	Tiene 1 ángulo obtuso

3. Clasifica estos triángulos según sus lados y según sus ángulos.

	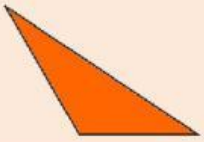	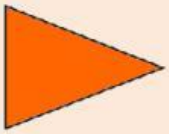		

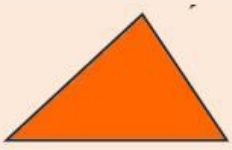	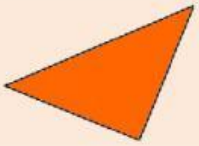		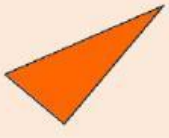	

LIVEWORKSHEETS