IES LA RIBERA **Matemàtiques 1r d'ESO**

Nom: **Curs actual:**

Tram 2: Nombres Enters

1. Relaciona cada operació amb la corresponent representació (línia numèrica o fitxes) i resol l'operació. De les que quedin sense relacionar, fes tu la representació sobre la línia numèrica.

a. $-5 + 2 =$	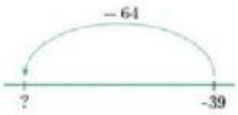
b. $-2 - -5 =$	
c. $-5 - -2 =$	
d. $-2 + 5 =$	
e. $2 - 5 =$	
f. $-39 - -64 =$	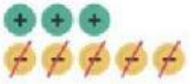
g. $25 - 64 =$	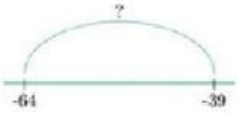
h. $-39 - 64 =$	
i. $39 - 64 =$	

LIVEWORKSHEETS

IES LA RIBERA **Matemàtiques 1r d'ESO**

Nom: **Curs actual:**

2. Ets al -4. Fas un salt de -3, un de 5 i un de 2. A quin nombre arribes?

3. Quina posició ocupa la bandereta blava?



4. Ordena els nombres de més gran a més petit (>):



5. Completa la cadena:

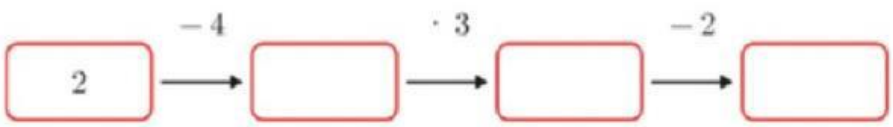

LIVEWORKSHEETS

IES LA RIBERA	Matemàtiques 1r d'ESO
Nom:	Curs actual:

6. Completa les capsetes additives i escriu l'operació que fas per completar-les:



7. Completa les capsetes multiplicatives i escriu les operacions que pots deduir de cada una d'elles.



8. Utilitzant el cover-up, troba el nombre amagat davall de cada taca. Enregistra, pas a pas, la resolució:

a. $14 + 3 \cdot \square = 2$

b. $-2 - (-5 + \square) = 1$

LIVEWORKSHEETS