Ф.И_____ **Естествознание 3 класс**

Урок 2 **Вариант -1**

Тема: Как «работают» листья растений?



1)Задание. Подпиши процесс протекания фотосинтеза.



/1б

2)Задание. Вставь пропущенные слова.

А)Фотосинтез – это процесс , когда в листьях под воздействием _____света из воды и _____ образуются сахар и _____.

/3б

Б)Хлорофил -это вещество, которое придаёт растениям какой цвет?

Закрась листок в нужный цвет.



/1б

3)Задание. Ответь на вопросы.

1.В какой части растения происходит фотосинтез?

А)Корень б)Стебель в)Плоды г)Листья

2. Какие питательные вещества образуют растения при фотосинтезе?

А) Крахмал и соль б)Фруктоза в)Крахмал и сахар г)Глюкоза

3. Какой газ вырабатывают растения в большом количестве?

А)Углекислый газ б) Азот в)Водород г)Кислород

4. При каком процессе растения вырабатывают больше всего кислорода?

А) Дыхание б)Питание в) Увядание г)Размножение

5.Без чего невозможен фотосинтез?

А)Тепло б) Питательная почва в) Радиация г)Солнечный свет

/5б

Итого: /10б

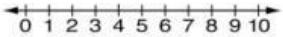

Ф.И_____ **Естествознание 3 класс**

Урок 2 **Вариант -2**

Тема: Как «работают» листья растений?



1) Задание. Подпиши процесс протекания фотосинтеза.



/1б

2)Задание. Вставь пропущенные слова.

А)Фотосинтез – это процесс , когда в _____ под воздействием солнечного света из воды и _____ образуются _____ и кислород.

/3б

Б)Хлорофил -это вещество, которое придаёт растениям какой цвет?

Закрась листок в нужный цвет.



/1б

3)Задание. Ответь на вопросы.

1.В какой части растения происходит фотосинтез?

А)Корень б) Листья в)Плоды г) Стебель

2. Какие питательные вещества образуют растения при фотосинтезе?

А) Крахмал и соль б) Крахмал и сахар в) Фруктоза г)Глюкоза

3. Какой газ вырабатывают растения в большом количестве?

А)Азот б) Углекислый газ в)Водород г)Кислород

4. При каком процессе растения вырабатывают больше всего кислорода?

А) Размножение б)Питание в) Увядание г) Дыхание

5.Без чего невозможен фотосинтез?

А)Тепло б) Солнечный свет в) Радиация г) Питательная почва

/5б

Итого: /10б

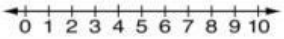

LIVEWORKSHEETS