LECCIÓN #2 DE MATEMÁTICA

Tema: Las fracciones

Nombre: _____ **Fecha:** _____

Grado: Quinto A **Calificación**: _____

1. Une con líneas cada concepto con su significado.

Fracción ○	○ Indica en cuántas partes iguales se divide el entero.
Numerador ○	○ Es la unidad completa antes de dividirla.
Denominador ○	○ Representa una o varias partes iguales de un entero.
Entero ○	○ Indica cuántas partes se toman del entero.

2. Observa cada fracción, colorea las partes que corresponden y completa la tabla.

Fracción	Representación gráfica	Numerador	Denominador	¿Cómo se lee?
$\frac{1}{4}$		_____	_____	_____
$\frac{2}{6}$	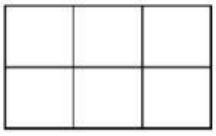	_____	_____	_____
$\frac{3}{5}$		_____	_____	_____
$\frac{5}{8}$	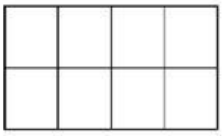	_____	_____	_____
$\frac{7}{12}$		_____	_____	_____

LIVEWORKSHEETS