INSTITUCIÓN EDUCATIVA N°40525
SAN SANTIAGO
PUYCA – LA UNIÓN - AREQUIPA

FICHA INTERACTIVA MATEMÁTICA– 3°

Reforzamiento Matemática y Comunicación

I. ÁREA DE MATEMÁTICA

1. Cuenta y completa

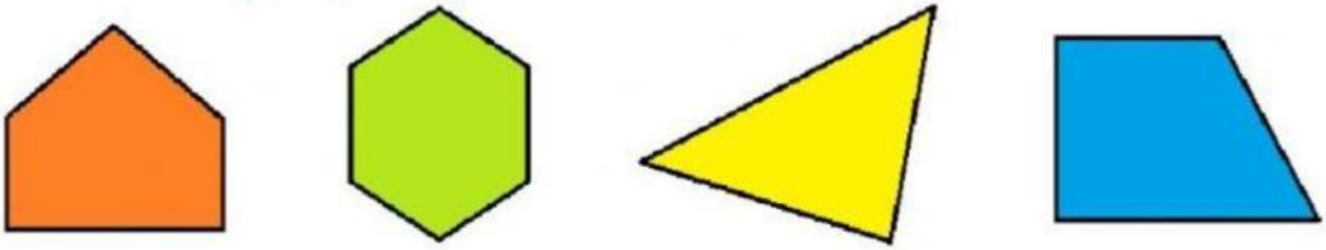

☐ lados ☐ lados ☐ lados ☐ lados

☐ vértices ☐ vértices ☐ vértices ☐ vértices

2. Escribe el nombre de la figura geométrica.

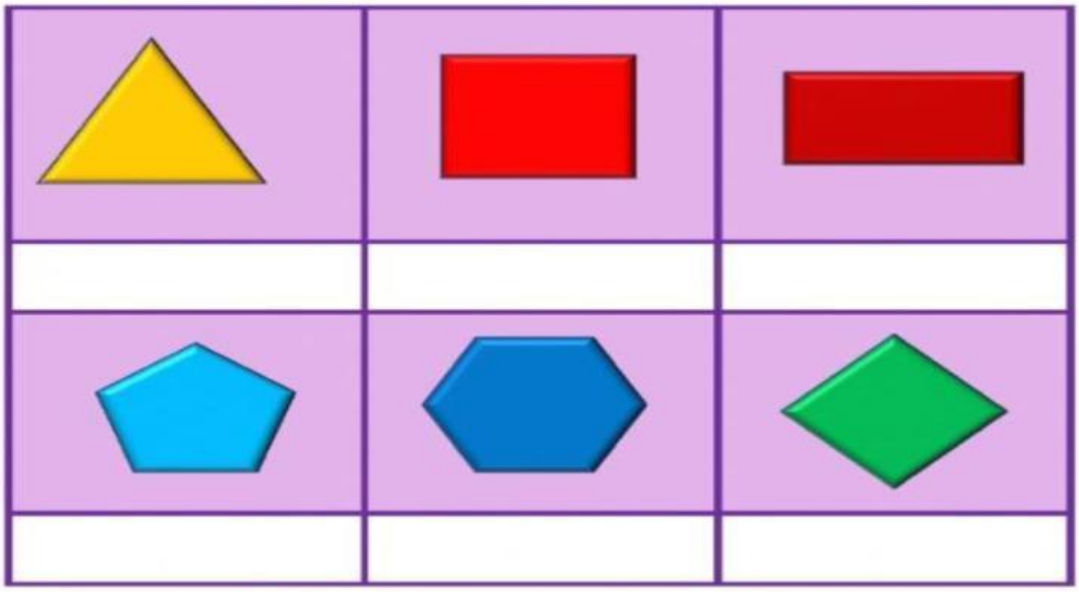

Pentágono	Rombo	Cuadrado
Rectángulo	Hexágono	Triángulo

PIP Nancy Ale Zambrano

Prof. Alodia Bellido Apaza

LIVEWORKSHEETS

3. **¿Quién es el *intruso*? Marca el objeto que NO se corresponde con el polígono que aparece al principio de cada fila.**



LIVEWORKSHEETS

INSTITUCIÓN EDUCATIVA N°40525
SAN SANTIAGO
PUYCA – LA UNIÓN - AREQUIPA

4. Observa los objetos, arrastra y clasificalos donde correspondan.

RECTÁNGULOS	CÍRCULOS	PENTÁGONOS

TRIÁNGULOS	CUADRADOS	ROMBOS



LIVEWORKSHEETS

II. COMPRENCIÓN DE TEXTO:

Manuela leyó esta historieta.



LIVEWORKSHEETS

INSTITUCIÓN EDUCATIVA N°40525
SAN SANTIAGO
PUYCA – LA UNIÓN - AREQUIPA

1. Selecciona la respuesta correcta:

1.- ¿Sobre qué trata principalmente esta historieta?

a) Sobre un viaje en bus.

b) Sobre el cuidado del medio ambiente.

c) Sobre un paseo de amigos por la ciudad.

2.- ¿A quién está dirigido principalmente esta historieta?

a) A todas las personas.

b) A las señoras que venden queques.

c) A los choferes de los buses.

3.- Según la historieta. ¿Qué pone en riesgo la contaminación?

a) Al planeta.

b) Nuestra salud.

c) La venta de queques.

4.- ¿Es cierto que la educación empieza en casa?

SI NO

¿Por qué? Explica tu respuesta.

LIVEWORKSHEETS