LKPD
(Lembar Kerja Peserta Didik)

Mengenal Bangun Datar

Lingkaran, Persegi, Persegi Panjang dan Segitiga

Fase A – Kelas 1



Nama : _____

Kelas : _____

Sekolah : _____

LIVEWORKSHEETS

MATEMATIKA KELAS 1 FASE A

Nama: _____

Kelas: _____ Nomor Absen: _____

Penilaian:

Nilai: Paraf:

MENGENAL BANGUN DATAR

Tentukan bentuk bangun datar benda-benda berikut!

Segi empat	Segitiga	Lingkaran
Memiliki 4 sisi dan 4 sudut.	Memiliki 3 sisi dan 3 sudut.	Memiliki 1 sisi dan tidak memiliki sudut.

1 

Donat

- Segi empat ○
- Segitiga ○
- Lingkaran ✓

2 

_____

- Segi empat ○
- Segitiga ○
- Lingkaran ○

3 

_____

- Segi empat ○
- Segitiga ○
- Lingkaran ○

4 

_____

- Segi empat ○
- Segitiga ○
- Lingkaran ○

5 

_____

- Segi empat ○
- Segitiga ○
- Lingkaran ○

6 

_____

- Segi empat ○
- Segitiga ○
- Lingkaran ○

7 

_____

- Segi empat ○
- Segitiga ○
- Lingkaran ○

8 

_____

- Segi empat ○
- Segitiga ○
- Lingkaran ○

LIVEWORKSHEETS

Nama Siswa: _____ Absen No: _____

Kelas: _____ Penilaian:

GAMBAR BANGUN DATAR

Gambarlah bangun datar yang sesuai dengan gambar di atasnya.




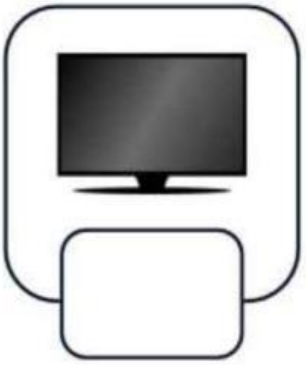




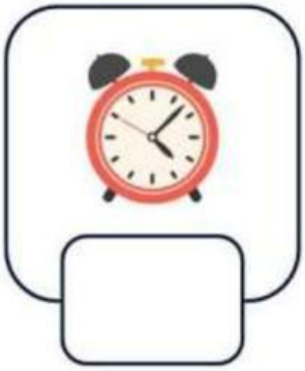
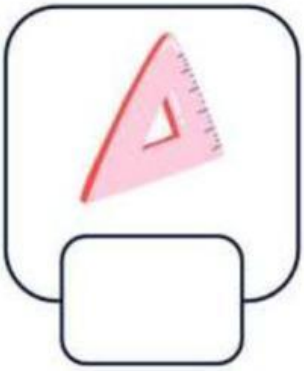
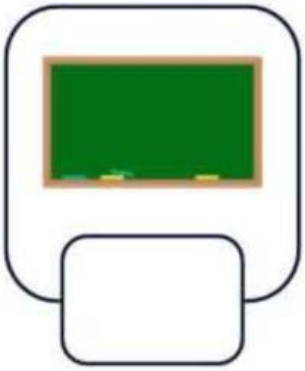
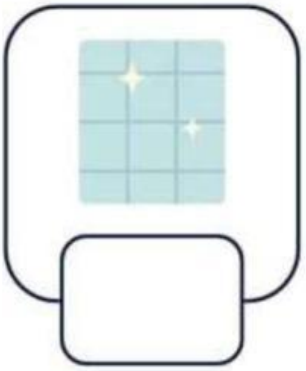

Kritik & Saran Guru	Paraf Guru	Paraf Orang Tua
_____	_____	_____

LIVEWORKSHEETS

SD KELAS 1

Nama: _____

Kelas: _____ Absen No: _____

Penilaian:

Nilai: Paraf:

KENALI BENTUK BANGUN DATAR

Tulis nama dari bangun datar sesuai bentuk benda di bawah ini.



Lingkaran































LIVEWORKSHEETS