LEMBAR KERJA MURID (LKPD)

Matematika Kelas IV | Pola Gambar Membesar dan Mengecil

Nama kelompok : _____ Kelas : _____

Anggota : _____

Kegiatan 1: Mengidentifikasi pola

Amati banyak kelereng pada setiap kumpulan. Tentukan jenis pola dan aturan polanya.

Pola A

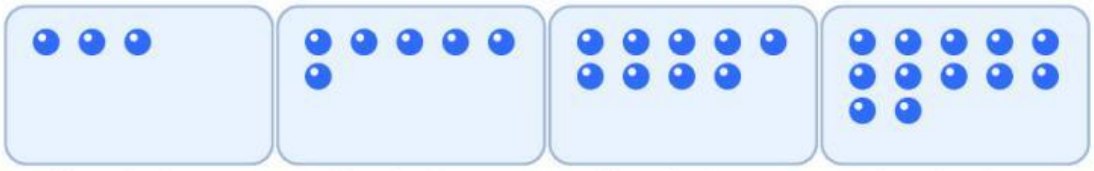

Kumpulan 1 Kumpulan 2 Kumpulan 3 Kumpulan 4

Jenis pola (membesar / mengecil) : _____ Aturan : ditambah / dikurangi
Berapa? _____

Pola B

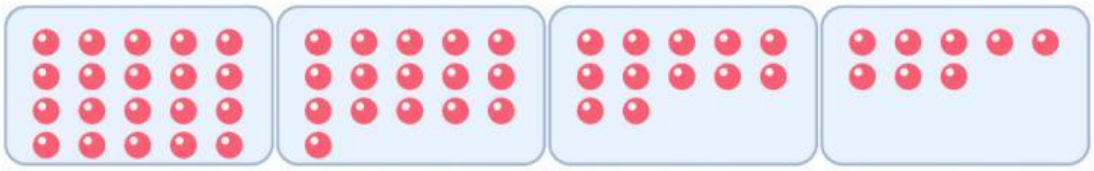

Kumpulan 1 Kumpulan 2 Kumpulan 3 Kumpulan 4

Jenis pola (membesar / mengecil) : _____ Aturan : ditambah / dikurangi
Berapa? _____

Pola C

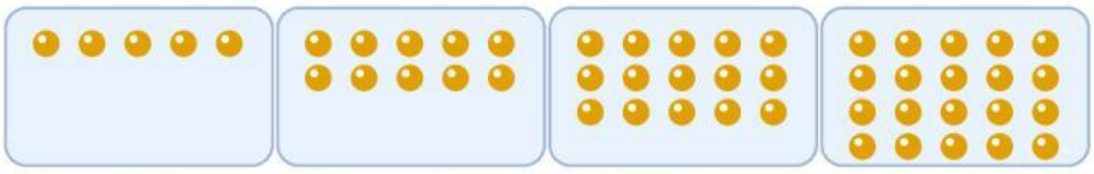

Kumpulan 1 Kumpulan 2 Kumpulan 3 Kumpulan 4

Jenis pola (membesar / mengecil) : _____ Aturan : ditambah / dikurangi
Berapa? _____

Kegiatan 2: Menentukan kumpulan berikutnya

Tentukan banyak benda pada kumpulan berikutnya dengan penjumlahan atau pengurangan.

1) 12, 15, 18, ...

Kumpulan berikutnya = ☐

2) 40, 36, 32, ...

Kumpulan berikutnya = ☐

3) 25, 35, 45, ...

Kumpulan berikutnya = ☐

4) 90, 80, 70, ...

Kumpulan berikutnya = ☐

Kerja sama itu menyenangkan. Bantu temanmu dan sampaikan pendapat dengan santun.

LIVEWORKSHEETS

LEMBAR KERJA MURID (LKPD)

Matematika Kelas IV | Pola Gambar Membesar dan Mengecil

Kegiatan 3: Membuat pola sendiri

Susun pola dengan kelereng atau kerikil di mejamu, mengikuti contoh guru.
Tuliskan banyak benda pada setiap kumpulan.

Pola membesar

Kumpulan 1	Kumpulan 2	Kumpulan 3	Kumpulan 4

Aturan polaku : ditambah / dikurangi _____ setiap kumpulan

Pola mengecil

Kumpulan 1	Kumpulan 2	Kumpulan 3	Kumpulan 4

Aturan polaku : ditambah / dikurangi _____ setiap kumpulan

Refleksi

Beri tanda centang pada yang sudah kamu bisa.

- ☐ Saya dapat membedakan pola membesar dan pola mengecil.
- ☐ Saya dapat menentukan banyak benda pada kumpulan berikutnya.
- ☐ Saya dapat membuat pola dengan kelereng atau kerikil.
- ☐ Saya membantu teman dalam kelompok.

LIVEWORKSHEETS