LA LONGITUD: PASO DE UNAS UNIDADES A OTRAS Y PROBLEMAS

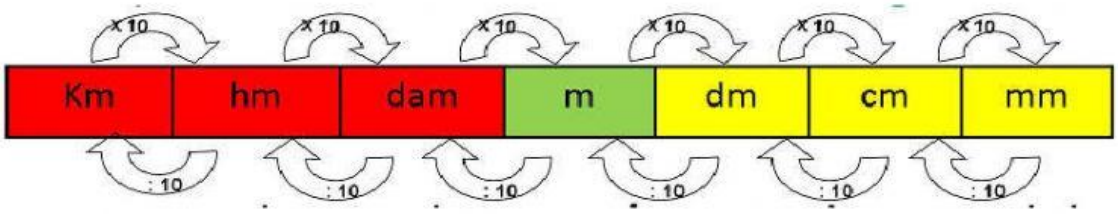

Completa. Transforma a la unidad indicada. (Indica qué operación hay que realizar y luego el resultado) (P.e: 7 m = 7 x 10 = 70 dm. Pon espacios)

12 m = _____= ____ dm

6m = _____=____ cm

21 m = _____ =_____ mm

5 dm = _____ =____cm

25 dm = _____ =_____ mm

34 cm= _____=_____mm

12.000 mm = _____= _____m

900 cm= _____= _____ m

800 mm= _____=_____cm

600 mm = _____=_____ dm

430 cm = _____= _____ dm

900 dm = _____= _____m

Expresa en cm. (Primero indica la operación que hay que realizar como en el ejemplo, después la suma y luego el resultado. Pon espacios)

6m y 5 cm = 6 x 100 + 5 = 600 + 5 = 605 cm

4 m y 93 cm = _____ + _____ = _____ + _____ = _____ cm

5 m y 21 dm = _____ + _____ = _____ + _____ = _____ cm

8 m, 7 dm y 25 cm = _____ + _____+ _____ = _____+ _____+ ____ = _____ cm

Elena ha comprado una cuerda de 325 centímetros y Luis una de 34 dm ¿Cuál es la diferencia en centímetros entre las dos cuerdas?

1º Convierte a la unidad indicada _____dm = _____ = _____ cm

2º Realiza la operación adecuada para saber la diferencia

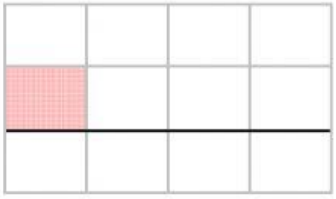

cm de diferencia

LIVEWORKSHEETS

Completa. Transforma a la unidad indicada. (Indica qué operación hay que realizar y luego el resultado, 7 Km = 7 x 1000 = 7000 m. Pon espacios)

22 Km = _____ = _____m

46 Hm = _____= _____ m

37 Hm= _____= _____Dam

43 Km = _____ = _____ Hm

7.000 m = _____= ____Km

6.000 m= _____=_____ Hm

540 m= _____=_____Dam

300 Hm = _____=_____ Km

Expresa en m. (Observa el ejemplo, primero indica la operación que hay que realizar, después la suma y luego el resultado. Pon espacios)

5 Km y 400 m = 5 x 1000 + 400 = 5.000 + 400 = 5.400 cm

8 Hm y 500 m = _____ + _____ = _____+_____ = _____ m

6 Km y 2 Hm = _____ + _____ = _____ + _____ = _____ m

3 Dam y 3 m = _____+ _____ = _____ + _____ = _____ m

8 Km, 4 Hm y 2 Dam= _____ + _____+ _____=

_____ + _____ + _____ = _____ m

Un ciclista debe recorrer en dos etapas 214 Km. En la primera etapa ha recorrido 960 Hm ¿Cuántos kilómetros debe recorrer en la segunda etapa?

1º Convierte a la unidad adecuada: _____ Hm = _____= _____Km

2º Realiza la operación adecuada

para averiguar cuánto le queda por recorrer

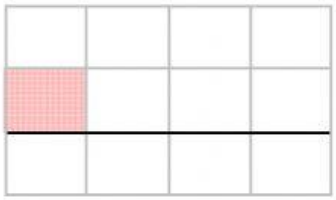

Km le faltan

La alfombra roja de un evento mide 2 Dam de largo ¿Cuántos metros mide?

2 Dam = _____ = _____ m

Un topo ha hecho un túnel de 800 centímetros de largo ¿Cuántos metros mide el túnel?

800 cm = _____ = _____ m

LIVEWORKSHEETS