ABCTIMEWORKSHEETS

1 Idatzi, zifren eta letren bitartez, honako irudi hauek irudikatzen dituzten zatikiak.



→ _____

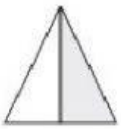

→ _____



→ _____

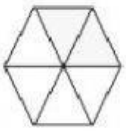

→ _____

2 idatzi zatikia zifrekin.

lau seiren → ____	bi bosten → ____	heren bat → ____
hiru hamaikaren → ____	erdi bat → ____	hamabi zazpiren → ____
zortzi bederatziren → ____	lau laurden → ____	hamar bosten → ____

3 Idatzi kasu bakoitzean eskatzen dizutena.

Lau zatiki unitatea baino handiagoak. → _____

Lau zatiki unitatearen berdinak. → _____

Lau zatiki unitatea baino txikiagoak. → _____

4 Erreparatu adibideari, eta osatu honako taula hau.

Honela idazten da	$\frac{1}{5}$	$\frac{4}{6}$	$\frac{2}{3}$	$\frac{3}{8}$
Honela irakurtzen da	bosten bat			

5 Idatzi honako itxurazko zatiki hauek adierazten duten zenbakia.

$\frac{6}{2}$ $\frac{10}{5}$ $\frac{16}{4}$ $\frac{20}{5}$ $\frac{18}{2}$ $\frac{45}{5}$ $\frac{9}{1}$

ALLTIMEWORKSHEETS

6- Bi herriren arteko distantzia 15 km-koa da. Mikelek 6 km egin baditu, bidearen zer zatiki egin du? Zer zatiki falta zaio egitea?

Lehenengo erantzuna →

Bigarren erantzuna →

7- Bi lagunek pizza bat 8 zati berdinetan banatu dute. Anek jaten du 6/8, eta Mirenek 3/8 . Posible al da hori?

8- Idatzi <,> edo =, kasu bakoitzaren arabera

a)	6/9	4/9	d)	6/10	8/10
b)	7/11	6/11	e)	9/5	9/6
c)	9/5	9/6	f)	5/9	5/6

9- Ordenatu txikitik handira zatiki multzo hau

11/12, 7/12, 8/12, 1/12, 12/12, 5,12

Osatu honako esaldi hauek.

- Zatiki bat unitatea baino txikiagoa da, zenbakitzailea izendatzailea baino _____ bada.
- Zatiki bat unitatearen berdina da, zenbakitzailea izendatzailearen _____ bada.
- Zatiki bat unitatea bat baino handiagoa da, zenbakitzailea izendatzailea baino _____ bada.