Situaciones Problemáticas en el Bosque de los Chanchitos

CLASE 5: Resolvemos problemas con ayuda de los chanchitos

Problema 1 (Suma con llevada)

🧱 "El chanchito mayor fue al corralón y compró 28 ladrillos rojos por la mañana. Como no le alcanzaban para terminar la pared, a la tarde compró 15 ladrillos más. ¿Cuántos ladrillos tiene ahora en total?"

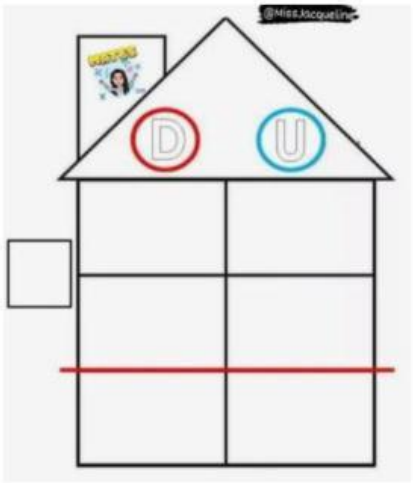

Respuesta: tiene en total ____ ladrillos.

Problema 2 (Resta con dificultad)

🐺 "El lobo malo tenía una colección de 43 piñas en el bosque para tirar a las casas. En su primer soplo fuerte, se le cayeron y rompieron 16 piñas. ¿Cuántas piñas le quedaron sanas al lobo?"

LIVEWORKSHEETS

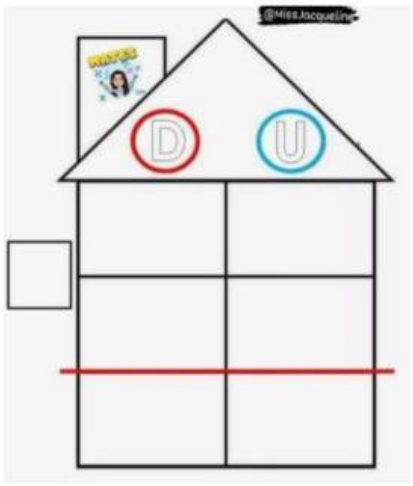

Respuesta: le quedaron _____ piñas sanas.

Problema 3.

🎄 "Para armar el tejado, el segundo chanchito juntó 37 ramitas de madera y su hermano le regaló otras 24 ramitas más. ¿Cuántas ramitas juntaron entre los dos?"

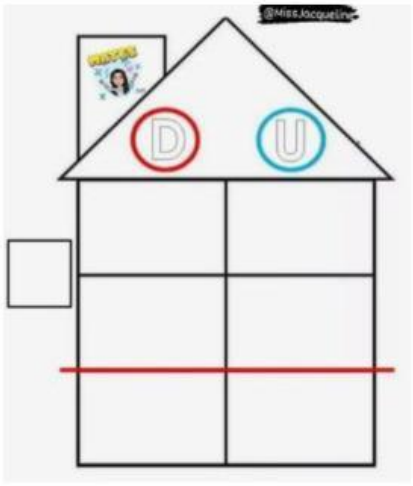

Respuesta: juntaron _____ ramitas.

LIVEWORKSHEETS