Ime i prezime:

1)Dat iskazi su zapisani simbolima.Pored zapisa u predviđeno polje napisati tačno ili netačno :

a) A pripada p b) B ne pripada s c) C pripada α d) D ne pripada α

a) $A \notin p$ b) $B \notin p$ c) $C \in \alpha$ d) $D \in \alpha$

$A \in p$ $B \in p$ $C \notin \alpha$ $D \notin \alpha$

2) Ispod slike napisati tačno ili netačno u zavisnosti od toga da li odgovaraju datim iskazima:

a) $P \notin a \quad i \quad D \in a$

b) $C \notin \alpha \quad i \quad M \in \alpha$

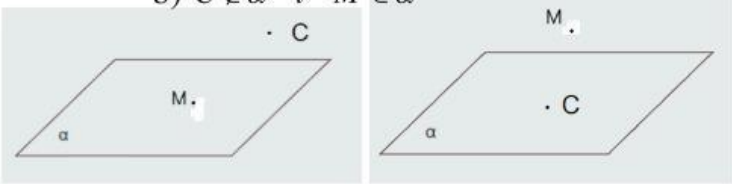

3.Zapisati riječima odnose sa slike:

a)

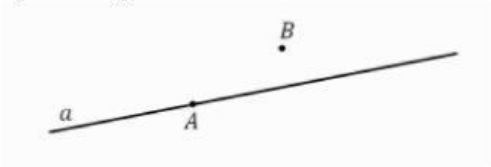

b)

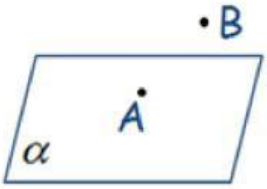

a) b)

4.Koliko najmanje a koliko najviše pravih je određeno sa 8 različitih tačaka?
Račun:

Odgovor:Najmanje: Najviše:

5.Na osnovu date slike odrediti u kom su položaju i zapisati riječima:

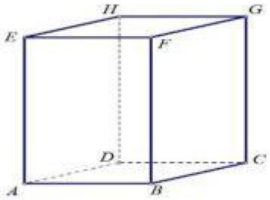

a)tačka A i p(F,C)
b)tačka B i p(G,B)
c)tačka C i r(A,B,D)
d)tačka H i r(A,B,F)

6. Koliko najmanje a koliko najviše ravni je određeno sa 4 nekolinearne tačke?Nabrojati ih!

Odgovor: Najmanje: Najviše:

LIVEWORKSHEETS