§3 Кут. Вимірювання кутів. Бісектриса кута.

1.Запишіть вершину і сторони кута:

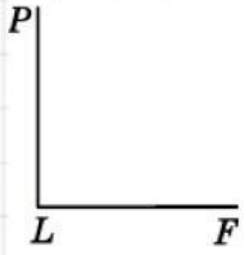

2.Який з даних кутів гострий, тупий, прямий, розгорнутий:

$\angle A = 39°$;
$\angle D = 170°$;
$\angle C = 91°$;
$\angle Q = 79°$;
$\angle B = 90°$;
$\angle M = 180°$;

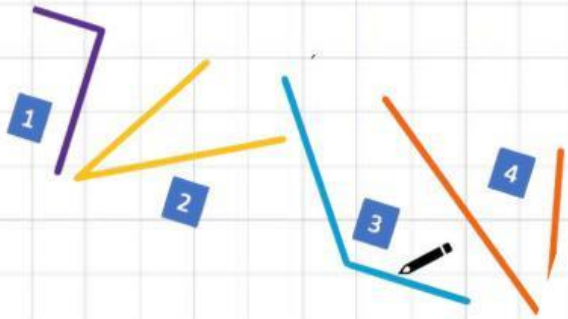

3.Чи є промінь OK бісектрисою кута AOB:

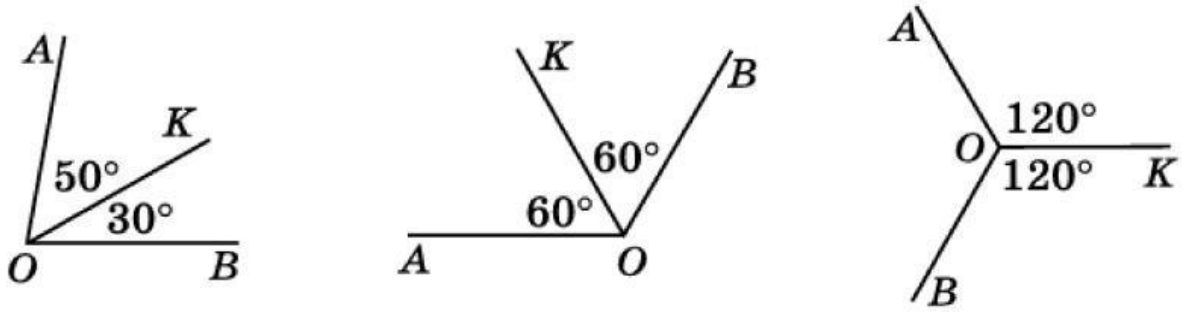

4.

- промінь, який виходить з вершини і ділить кут навпіл

LIVEWORKSHEETS