الدوران في المستوى الاحداثي

اسم الطالبة :

ما نوعُ التحويلِ الهندسيِّ أدناهُ؟

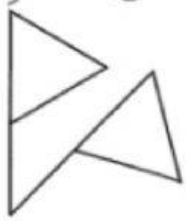

أ) دورانٌ ب) انعكاسٌ جـ) انسحابٌ د) الشكلُ لا يتغيّرُ

حدِّدْ إذا كانَ التحويلَ الهندسيُّ في كلِّ شكلٍ مِنَ الشكلينِ الآتيينِ انسحابًا أو انعكاسًا أو دورانًا:

٤) 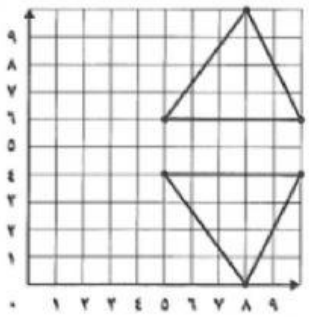

٥) 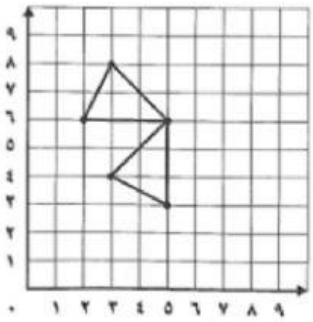

٤) _____

٥) _____

معلمة المادة / زهور يوسف هوسه

LIVEWORKSHEETS