LICEO LOS CÓNDORES
ALTO HOSPICIO

PORCENTAJES

I. Escribe el porcentaje representado en cada cuadrícula con los cuadros pintados.

a.



b.



c.

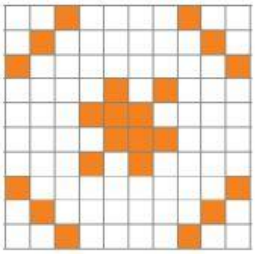

II. Completa la tabla con las representaciones de los porcentajes solicitados.

Porcentaje	Representación decimal	Representación fraccionaria
55 %		
80 %		
90 %		

III. Calcula.

a. El 32 % de 120

b. El 54 % de 540

c. El 65 % de 340

d. El 28 % de 740

LIVEWORKSHEETS

IV. Calcula a qué porcentaje del total corresponde el número dado

a. 14,4 de 32

b. 765 de 900

c. 117,6 de 420

V. Conecta en la columna B con la letra que le corresponda a la columna A

Columna A	
a. 67 es el 10% de...	_____ 13000
b. 27,5 es el 5% de...	_____ 550
c. 422,5 es el 13% de...	_____ 670
d. 5200 es el 40% de...	_____ 3250

VI. Resuelve los siguientes problemas. Escribe la respuesta y envía el desarrollo por classroom en la tarea asignada, solo así será válida tu respuesta.

a. Marcela tiene 600 láminas para repartir entre sus 3 sobrinos: 20 % para Sebastián, 30 % para Ana y 50 % para Joaquín. ¿Cuántas recibirá cada uno?

b. Ana, Luis y Carla se reparten un premio de $150 000 que obtuvieron. A Carla le corresponden $24 000, a Ana $55 000 y Luis se queda con el resto. ¿Cuál es el porcentaje que le corresponde a cada uno?

LIVEWORKSHEETS