LEMBAR KERJA PESERTA DIDIK (LKPD)

PENGETAHUAN DASAR PEMETAAN

KELAS :

NAMA KELOMPOK:
NAMA ANGGOTA:

PERHATIKAN PETA DI BAWAH INI!

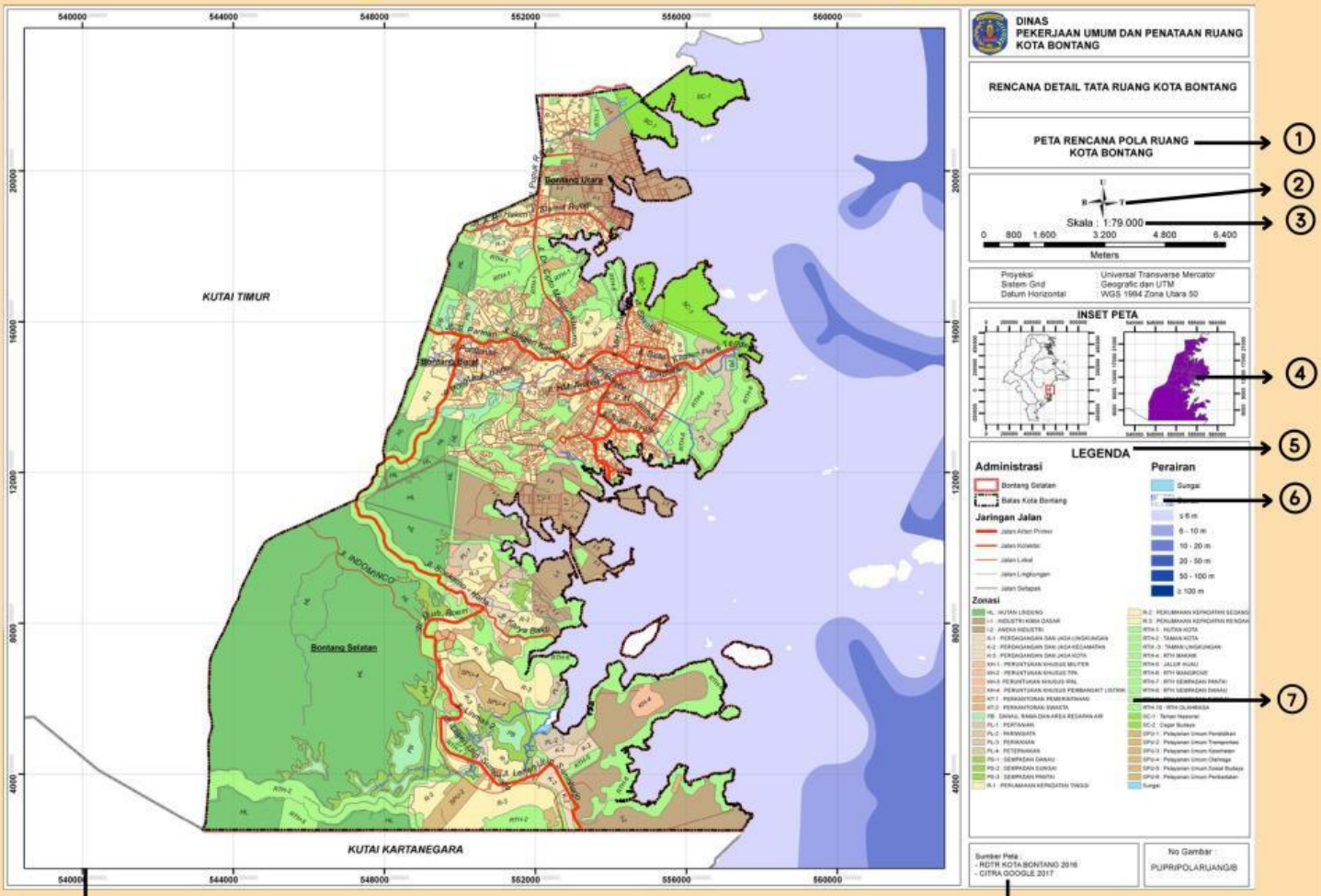

LIVEWORKSHEETS

DARI PETA DI ATAS IDENTIFIKASILAH BAGIAN PETA DAN BERIKAN PENJELASAN SINGKAT SESUAI PEMAHAMANMU!



NO	Nama Bagian Peta	Penjelasan Singkat
1		
2		
3		
4		
5		
6		

LIVEWORKSHEETS

DARI PETA DI ATAS IDENTIFIKASILAH BAGIAN PETA DAN BERIKAN PENJELASAN SINGKAT SESUAI PEMAHAMANMU!

NO	Nama Bagian Peta	Penjelasan Singkat
7		
8		
9		

LIVEWORKSHEETS

YUK, PAHAMI JENIS PETA BERDASARKAN SKALANYA

Hubungkan gambar peta dengan skala yang sesuai!

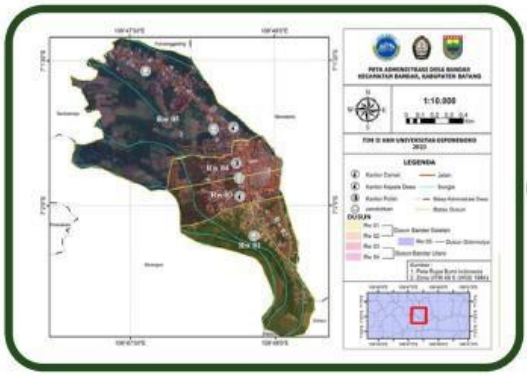

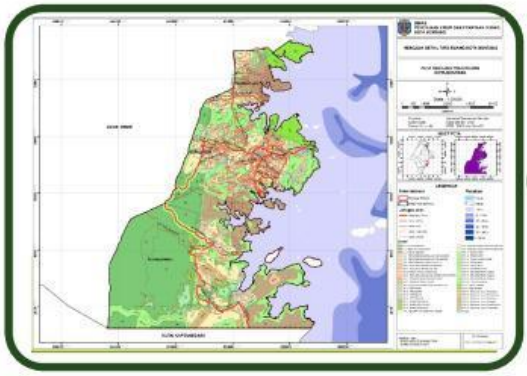

- PETA SKALA BESAR
- PETA SKALA KECIL
- PETA SKALA SEDANG
- PETA KADASTER

LIVEWORKSHEETS