Explora y descubre los cuerpos geométricos

Nombre: _____ Fecha: _____

1 Une cada imagen con el nombre del cuerpo geométrico que le corresponde.





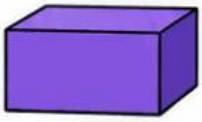

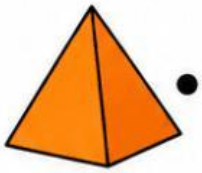

- Esfera
- Cilindro
- Prisma rectangular
- Cono
- Pirámide
- Cubo

2 Observa cada cuerpo geométrico y marca (✓) las características que tiene.

Cuerpo geométrico	Caras (planas)	Aristas (líneas)	Vértices (puntas)	Superficie curva
Cubo	○	○	○	○
Esfera	○	○	○	○
Cilindro	○	○	○	○
Pirámide	○	○	○	○

3 Relaciona cada cuerpo geométrico con sus características. Une con una línea ambas columnas.

Cuerpo geométrico

- Cilindro
- Cono
- Cubo
- Esfera

Características

- Todas sus caras son planas y tiene 6 caras iguales.
- Tiene 1 cara curva y 2 caras planas.
- Tiene 1 cara curva y termina en una punta.
- Tiene 1 cara curva y no tiene caras planas.

¡Sigue explorando y aprendiendo!

LIVEWORKSHEETS