BÀI 26: HÌNH THANG. DIỆN TÍCH HÌNH THANG (Tiết 1)

Họ và tên học sinh: .....

Câu 1: Quan sát các hình tứ giác bên dưới, em hãy chọn hình nào là Hình thang?

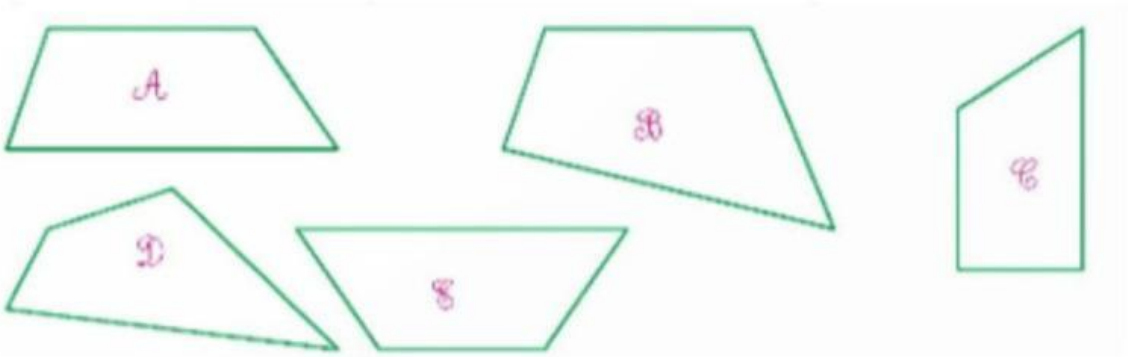

Hình ..... là hình thang.

Câu 2: Quan sát hình thang ABCD và lựa chọn từ ngữ phù hợp hoàn thành các câu sau:

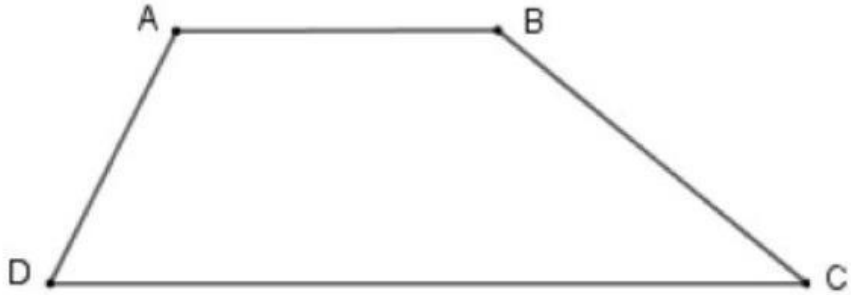

Hình thang ABCD

(song song; hình tứ giác; không song song)

- Hình thang ABCD có cặp cạnh đối diện AB và CD ..... với nhau.

- Cạnh AC và BD ..... với nhau.

- Ghi nhớ: Hình thang là ..... có một cặp cạnh đối diện song song với nhau.

LIVEWORKSHEETS

Câu 3: ***Quan sát hình thang MNPQ rồi điền từ hoặc ký hiệu thích hợp vào ô trống:***

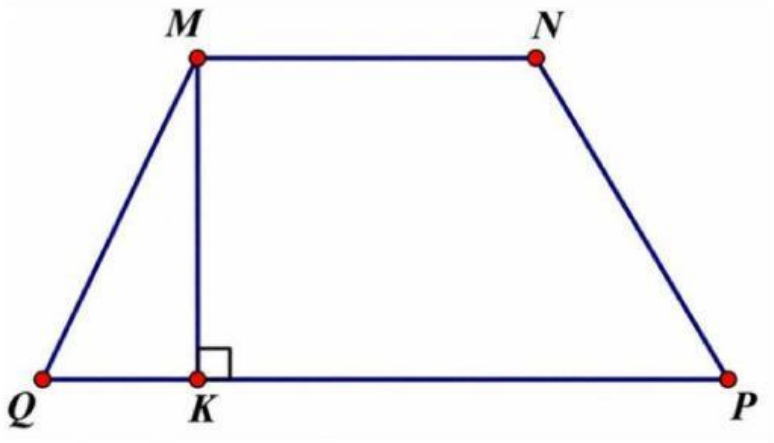

- Hai cạnh đáy là: .....

- Hai cạnh bên là: .....

- Đường cao là đoạn thẳng:.....

- Độ dài đoạn thẳng MK được gọi là: ..... của hình thang.

Câu 4. ***Em hãy kể tên 2 đồ vật trong gia đình hoặc xung quanh em có mặt phẳng mang hình dáng là Hình thang hoặc Hình thang vuông.***

.....

LIVEWORKSHEETS