اختبار العمليات الحسابية للاعداد الصحيحة

الاسم الثلاثي: الاء سيف السليماني **الرقم الجامعي:13009859**

---

1. ما هو ناتج العملية الحسابية التالية 12-×5- =

أ. -17 ب. 60 ج. 17 د. –60

2. وصل العملية بالناتج الصحيح



3.صل الاشارة المناسبة للاسئلة التالية :

LIVEWORKSHEETS

4. في الجدول ادناه حدد الاتي:

أ. حدد مضاعفات العدد3

ب. احد اعمدة الجدول جميع الاعداد فيه اعداد اولية ، حدد هذا العمود

الاعمده

٦	٥	٤	٣	٢	١
١٢	١١	١٠	٩	٨	٧
١٨	١٧	١٦	١٥	١٤	١٣
٢٤	٢٣	٢٢	٢١	٢٠	١٩
٣٠	٢٩	٢٨	٢٧	٢٦	٢٥

5. اكمل شجرة العوامل

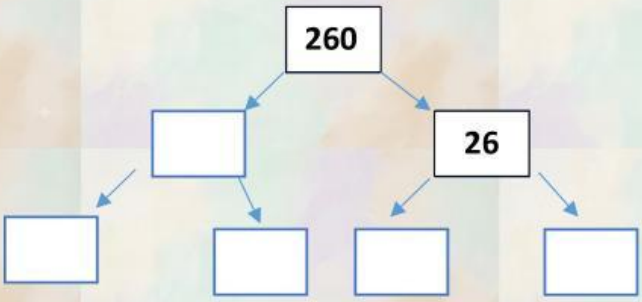

6. اكمل مضاعفات العدد 8

8،16،24،32،40 ، .....،.....،.....

7. اي من الاعداد التالية ليس عدد اولي:

LIVEWORKSHEETS

8. اي من المعادلات الاتية ناتجها يساوي 5 ؟

أ. $١٠٠ - (٢٥ - ١٧)^{٢}$

ب. $١٥ \times ٣ \div (٧ - ٤)^{٢}$

ج. $٤ \times ٢ + ٥ \times ٣$

د. $٣٥ - ١٥ \div ٣$

9.صل كل عربة بالصنوق الذي يحتوي الناتج الصحيح لها:

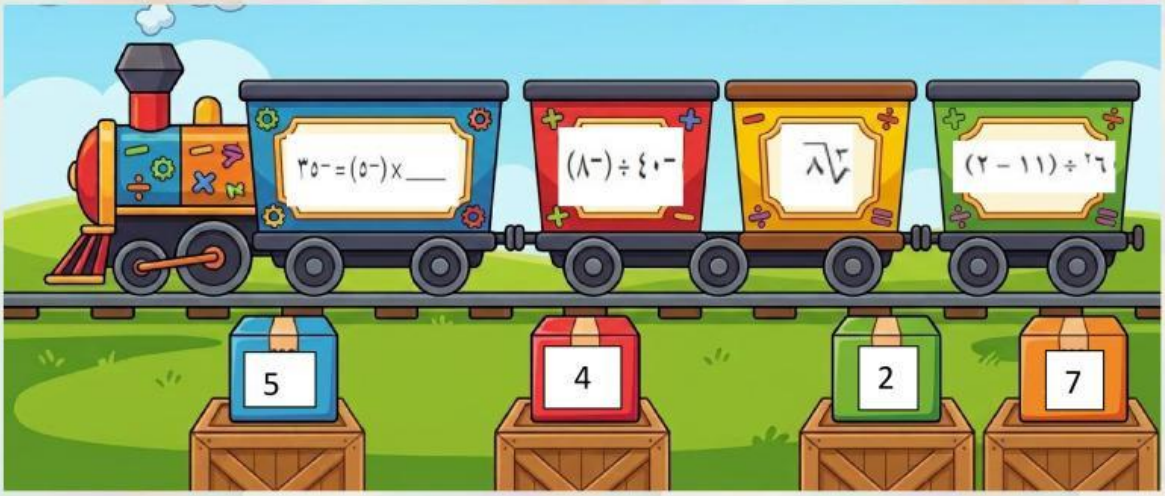

10.اكتب ما تعرفة عن الاعداد الاولية حسب فهمك

LIVEWORKSHEETS

11.كم عدد من الاعداد الاولية محصورة بين 20-40؟

أ. 3

ب.4

ج.5

د.6

12.صل كل عدد بعوامله الاولية

24	$5^2 \times 2$
42	$5 \times 3^2 \times 2^2$
50	3×2^3
180	$7 \times 3 \times 2$

13.اضغط على صورة للانتقال الى لعبة التعليمية

14.في القسمة ، الإشارات الاعداد مختلفة ،يكون الناتج عددا موجبا؟

15.اكتب الناتج العدد للسزال الذي تسمعه :

LIVEWORKSHEETS