السؤال الثاني

2

اكتبي اسم المجسم الظاهر في الصورة.



تذكري: اكتبي الاسم الصحيح بوضوح.

LIVEWORKSHEETS

السؤال الثالث

(Single Choice)

اختاري الإجابة الصحيحة.

أي المجسم الآتي جميع أوجهه مربعات متطابقة؟

كرة

مكعب

أسطوانة

مخروط

LIVEWORKSHEETS

السؤال الرابع

4

حددي جميع المجسمات ثلاثية الأبعاد.

(اختاري كل الإجابات الصحيحة)

هرم ☐

دائرة ☐

أسطوانة ☐

مربع ☐

مثلث ☐

مكعب ☐

مخروط ☐

تذكر: المجسمات ثلاثية الأبعاد لها طول، وعرض، وارتفاع.

LIVEWORKSHEETS

السؤال الخامس

اختاري عدد أوجه متوازي المستطيلات.

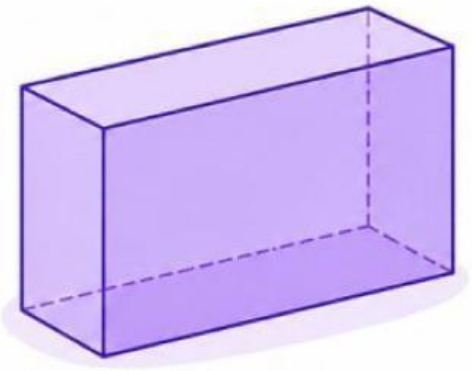

اختر من القائمة

- 4
- 5
- 6
- 8

تذكّر: اقرأ السؤال جيدًا قبل اختيار الإجابة.

LIVEWORKSHEETS

السؤال السادس

اسحبي اسم المجسم إلى صورته.

6

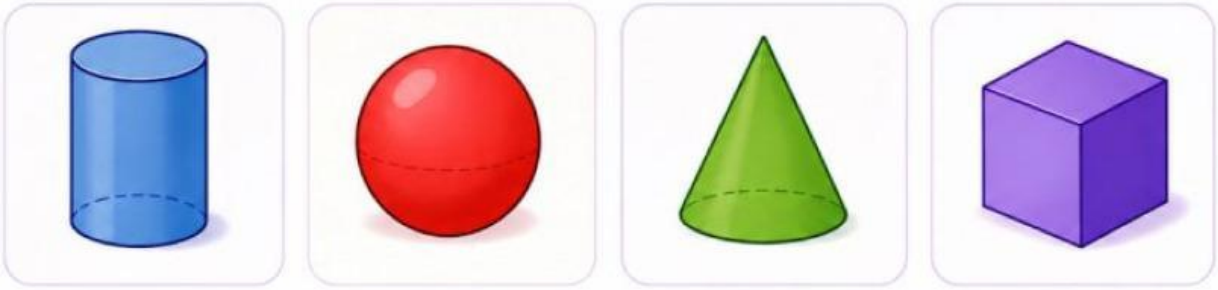

البطاقات

كرة	أسطوانة	مكعب	مخروط

LIVEWORKSHEETS

السؤال السابع

أسقطي عدد الرؤوس داخل المجسم المناسب.

كرة	مخروط	هرم رباعي	مكعب
↓	↓	↓	↓

البطاقات

1 0 5 8

LIVEWORKSHEETS

السؤال الثامن

صلي كلّ مجسّم بعدد أوجهه.

8

المجسّم	عدد الأوجه
مكعب	3
أسطوانة	5
مخروط	2
هرم رباعيِ	6

تذكّر: الأوجه هي الأسطح المسطّحةَ التي تحيط بالمجسّم.

LIVEWORKSHEETS

السؤال التاسع

اكتبي الفرق بين المكعب ومتوازي المستطيلات.

متوازي المستطيلات

المكعب

الإجابة:

.....

.....

.....

LIVEWORKSHEETS

السؤال العاشر

ابحثي عن أسماء المجسمات التالية داخل الشبكة.

م	ش	ن	و	ش	ر	ق	ب	ت
ك	ف	غ	م	ل	ج	س	ي	ص
ع	ر	ض	ط	و	ط	ا	ن	ة
ب	ك	ر	ة	ق	هـ	ع	ل	م
م	ا	ح	ب	د	خ	م	ط	ذ
م	خ	رو	ط	ت	ز	ر	و	ق
د	هـ	ر	ن	و	ي	ب	ك	ل
ن	ق	م	ي	ج	ف	غ	غ	ط
ج	د	ن	ش	و	ر	ب	خ	ع
ز	ي	ل	ته	ف	ص	ض	ع	ق

- مكعب
- مخروط
- أسطوانة
- كرة
- هرم
- منشور

LIVEWORKSHEETS

السؤال الحادي عشر

انظقي اسم المجسم الظاهر في الصورة.

اضغطي على الميكروفون وسجلي صوتك عند النطق.

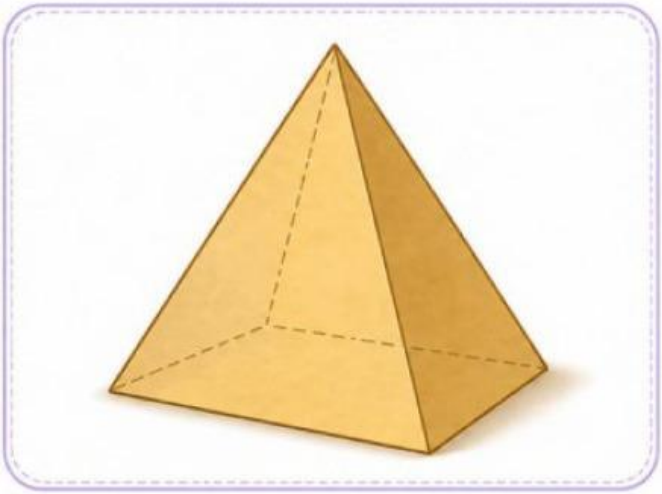

انطقي هنا

تذكري: انطقي بوضوح واستمعي لصوتك.

نصيحة:
تأكدي من أن الميكروفون يعمل قبل التسجيل.

LIVEWORKSHEETS

السؤال الثاني عشر

استمعي إلى الوصف ثم اختاري المجسم الصحيح.

الآن استمعي إلى الوصف التالي:

"مجسم له قاعدة دائرية وسطح منحني،
وليس له رؤوس"

مخروط

مكعب

هرم

أسطوانة

استمعي جيداً قبل اختيار الإجابة الصحيحة

LIVEWORKSHEETS

السؤال الثالث عشر

13

استمعي إلى السؤال ثم اكتبي الإجابة.

الصوت :

كم عدد رؤوس المكعب؟

0:00 / 0:04

اكتبي الإجابة :

تذكّري: اكتبي الرقم فقط.

LIVEWORKSHEETS

السؤال الرابع عشر

14

شاهدي الفيديو ثم أجيبي عن السؤال.

ما اسم المجسم الذي له قاعدة دائرية واحدة ورأس واحد؟

تذكري: الإجابة مستوحاة من الفيديو.

LIVEWORKSHEETS

السؤال الخامس عشر

اضغطي على الرابط التالى ثم أجيبي عن السؤال.

15

الرابط:

اضغطي على الرابط التالى لفتح اللعبة:

https://www.topmarks.co.uk/learning-to-count/3d-shapes

بعد فتح الرابط: ما اسم المجسم الذي يشبه علبة العصير؟

تذكري: افتحي الرابط في نافذة جديدة، ثم عودي للإجابة.

LIVEWORKSHEETS

السؤال السادس عشر

حددي قيمة العبارة الصحيحة بوضع علامة ⭐.

للمكعب:



- ☐ 6 أوجه
- ☐ 8 رؤوس
- ☐ 12 حرفًا

LIVEWORKSHEETS