LKPD

Ilmu Pengetahuan Alam

Tema: Sistem Pencernaan Manusia

Nama: _____

_____

_____

Kelas: _____



LIVEWORKSHEETS

LKPD Struktur dan Fungsi Tubuh Makhluk Hidup (Sistem Pencernaan Manusia)

Alur tujuan Pembelajaran :
Mengidentifikasi fungsi dan struktur sel melalui kegiatan penyelidikan, penelusuran, dan presentasi informasi

Simak video berikut sebelum mengerjakan e-LKPD

Tuliskan pendapatmu mengenai video tersebut

LIVEWORKSHEETS

Organ Pencernaan Manusia

Hubungkan gambar dengan nama organ pencernaan yang sesuai.

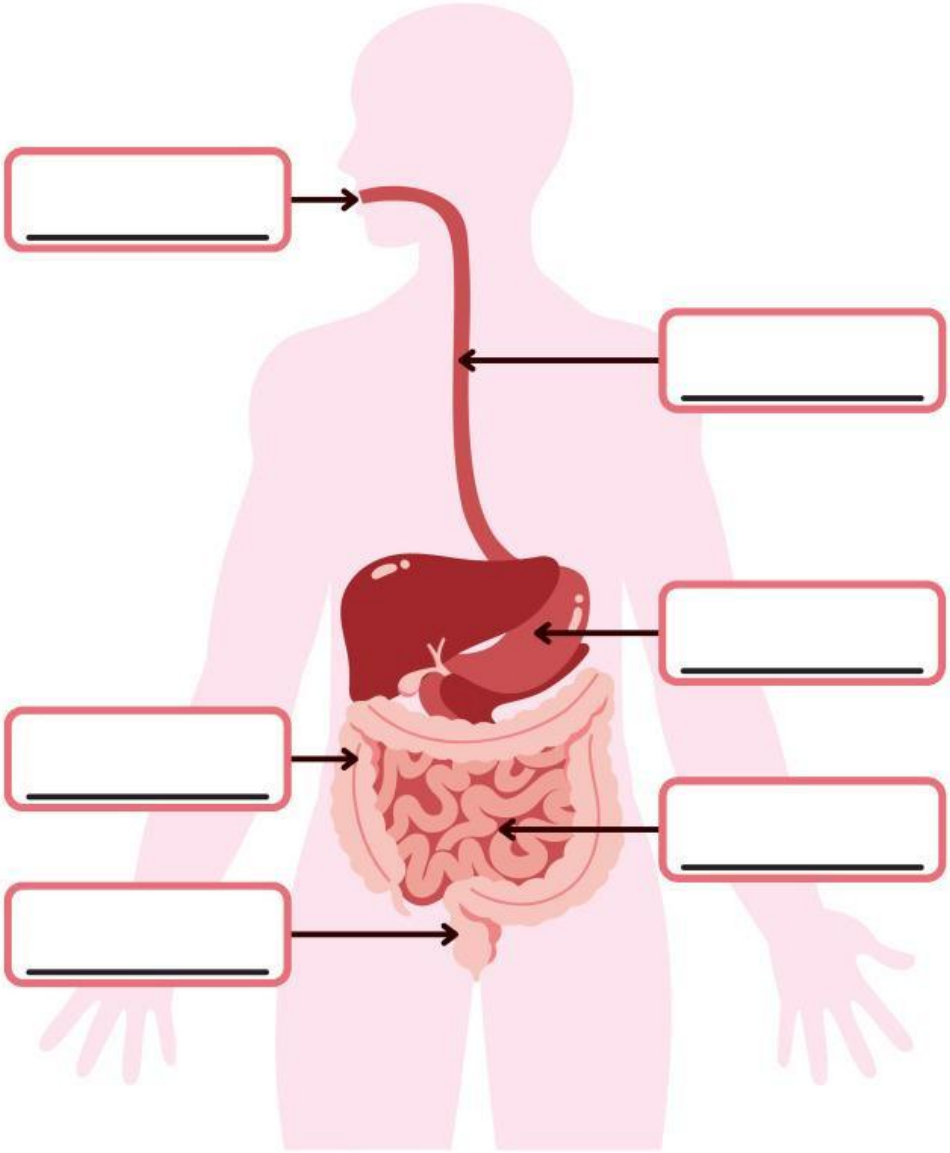

Anus

Mulut

Usus Halus

Lambung

Kerongkongan

Usus Besar

LIVEWORKSHEETS

Organ Pencernaan Manusia

Pasangkan fungsi organ pencernaan manusia di bawah ini dengan nama organ yang telah kalian pilih

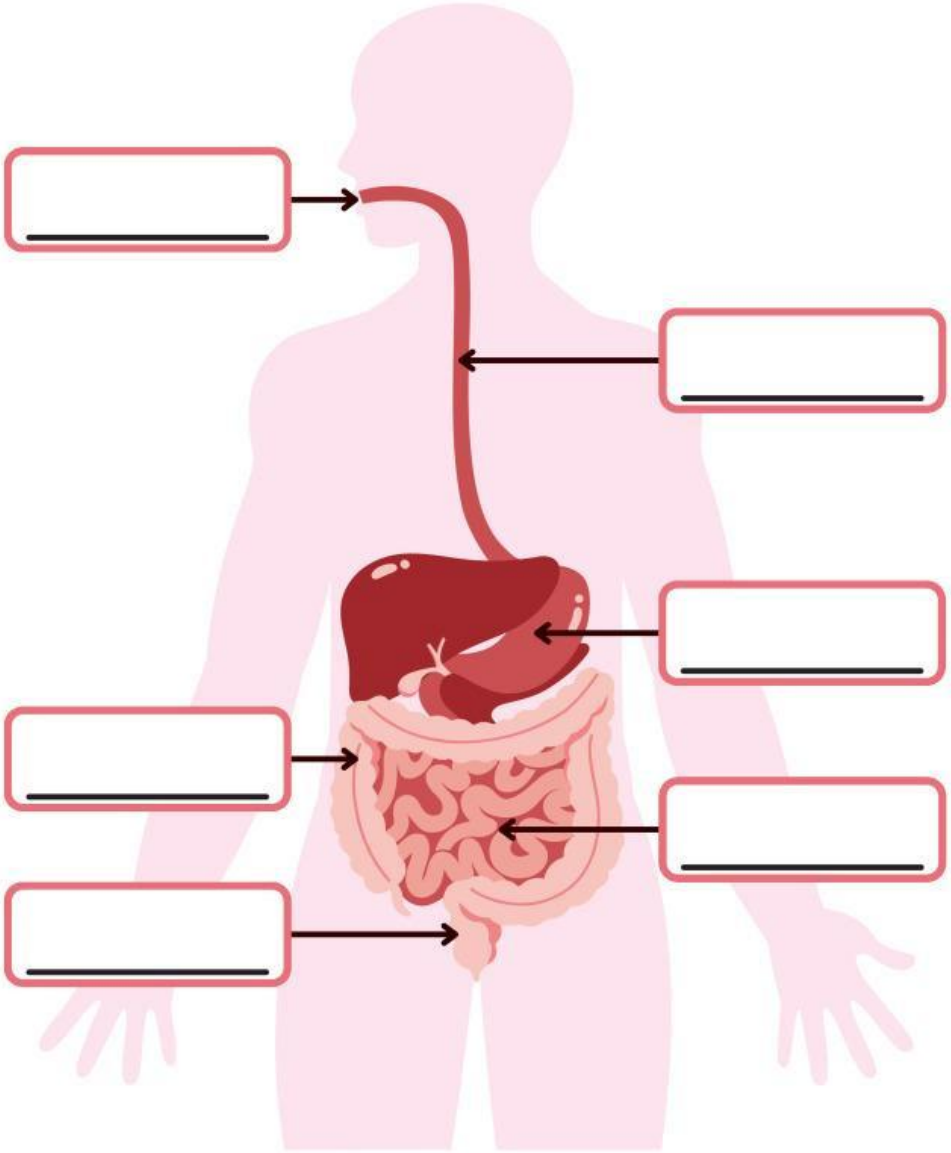

Penyerapan sari-sarai makanan

Penyerapan Air

Makanan dicerna secara mekanik

Pencernaan Kimiawi oleh HCl

Pengeluaran feses

Penyaluran Makanan

LIVEWORKSHEETS

Proses Pencernaan

Bagaimanakah alur proses pencernaan yang terjadi pada manusia?
Lengkapi diagram alir berikut.

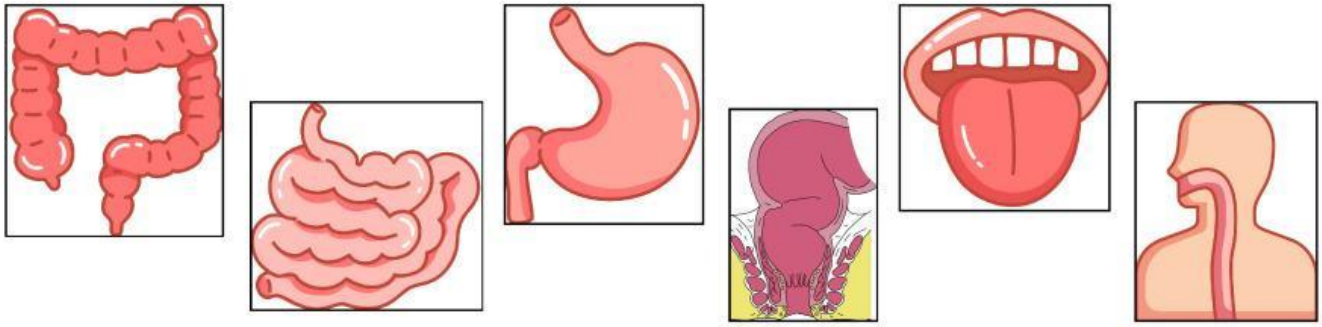

LIVEWORKSHEETS

Proses Pencernaan

Jelaskan perbedaan proses pencernaan secara Mekanik dengan proses pencernaan secara Kimiawi.

PENCERNAAN MEKANIS

PENCERNAAN KIMIAWI

LIVEWORKSHEETS

Proses Pencernaan

Perhatikan dan lengkapilah tabel tabel di bawah ini.

No.	Nama Organ	Pencernaan Mekanis	Pencernaan Kimiawi
1.		_____ _____ _____	_____ _____ _____
2.	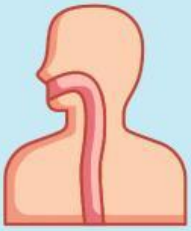	_____ _____ _____	-
3.		_____ _____ _____	_____ _____ _____
4.		-	_____ _____ _____

LIVEWORKSHEETS

Gangguan Organ Pencernaan

Jawablah pertanyaan di bawah ini.



Pertanyaan:

- Apa saja gangguan yang dapat terjadi pada sistem pencernaan manusia?

  Jawab: _____

- Apa penyebab terjadinya gangguan pada sistem pencernaan?

  Jawab: _____

- Bagaimana cara mencegah terjadinya gangguan pada sistem pencernaan?

  Jawab: _____

LIVEWORKSHEETS

Tuliskan Kesimpulanmu

Bagaimana perasaanmu setelah mempelajari materi sistem pencernaan?

LIVEWORKSHEETS