# દૂધેશ્વર ઉર્દૂ શાળા નં-1

ધોરણ -2

Name: _____ Section: _____ Date: _____ Score: _____

# Match The Shapes

Draw a line from the object on the left to the shape that matches it.

# આકારો ને જૈડો

ડાબી બાજુની વસ્તુથી તેને મળતા આવતા આકાર સુધી એક રેખા દોરો.

LIVEWORKSHEETS

Name:

Class:

# SHAPE COUNTING આકારોની ગણતરી

Count each shape and write the total in the correct box below.

દરેક આકાર ગણો અને નીચે આપેલા સાચા ખાનામાં કુલ સંખ્યા લખો.



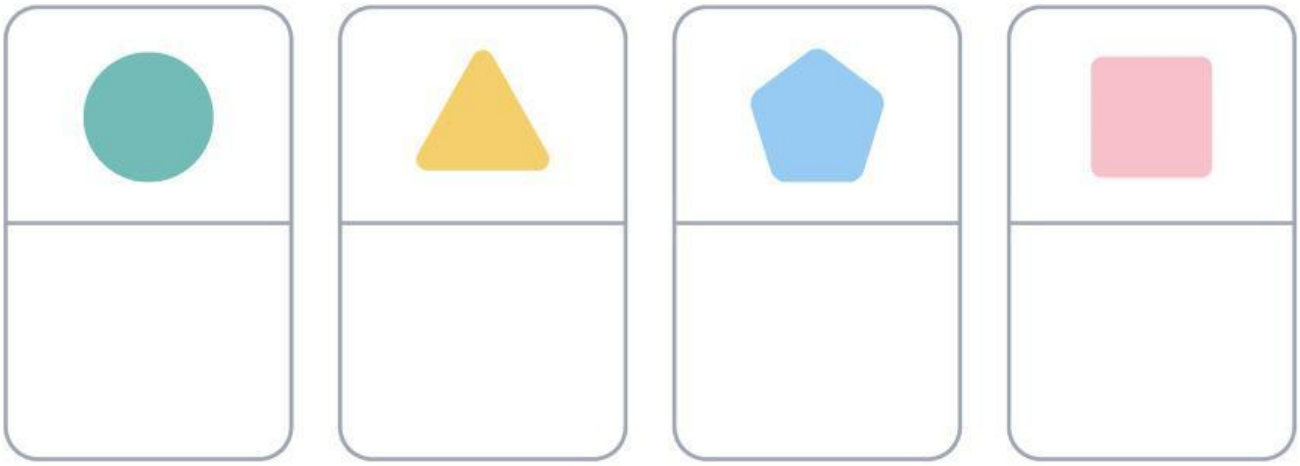

LIVEWORKSHEETS

# WHERE IS MY SHADOW?

# મારો પડછાયો ક્યાં છે?

Say the name of the shape and draw a line to match it with its shadow.

આકારનું નામ બોલો અને તેને તેના પડછાયા સાથે જોડતી રેખા દોરો.



LIVEWORKSHEETS

Name: Date:

# Shape Sides આકારની બાજુઓ

Count the sides of each shape.
Write the answer in the elements.

દરેક આકારની બાજુઓ ગણો.
જવાબ ખાનામાં લખો.

ગોળ-CIRCLE ચોરસ-SQURE ત્રિકોણ-TRAINGLE લંબચોરસ-RECTANGLE

0

3

4

4

LIVEWORKSHEETS