מושגי יסוד בגאומטריה

1. התאימו מושג למראה הגאומטרי שלו.

קרן

קטע

ישר

נקודה

2. חשבו את אורך הקטעים.

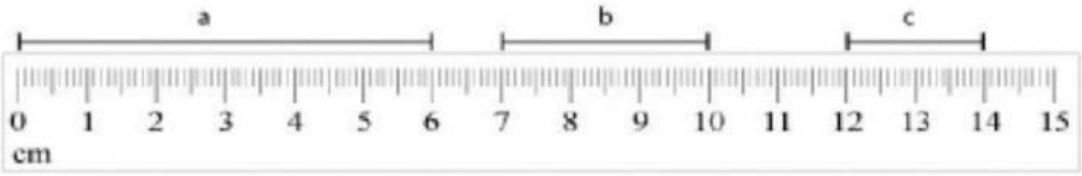

a = _____ cm b = _____ cm c = _____ cm

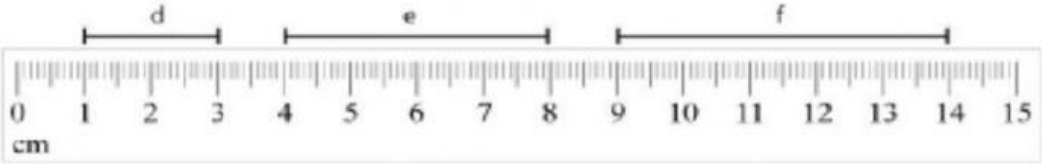

d = _____ cm e = _____ cm f = _____ cm

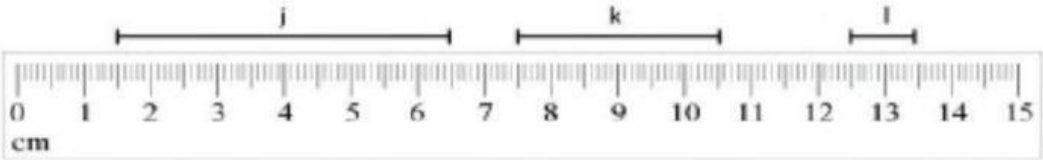

j = _____ cm k = _____ cm l = _____ cm

LIVEWORKSHEETS

.3

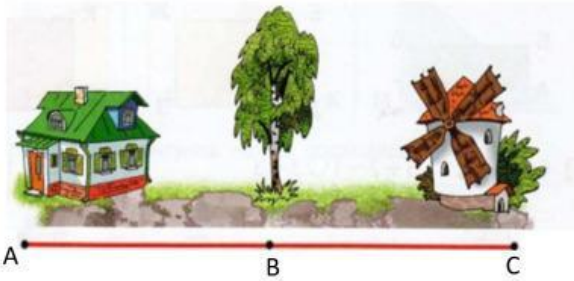

א. כמה קטעים בסרטוט?_____

ב. חשבו:

1. AB+ BC =
2. AC – AB =
3. AC –BC =

4. על קטע TR סימנו שתי נקודות S ו- V כמתואר בציור. בכל סעיף נתונים אורכים של מספר קטעים.

השלימו את הטבלה

	SV	TS	VR	SR	TR
א.	7			25	32
ב.		7	13		46
ג.		5	8	14	

.5

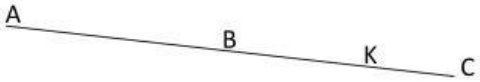

נקודה B היא אמצע AC (AB = BC)
KC = 3 ס"מ
BK = 4 ס"מ

חשב:

BC =_____ AK =_____

AB =_____ AC =_____

LIVEWORKSHEETS