TKA MATEMATIKA KELAS VI

LATIHAN

Nama : ..... Kelas : ..... Tanggal : .....

Pilihlah jawaban yang paling tepat dengan memberi tanda silang (X) pada A, B, C, atau D!

1 Perhatikan bilangan berikut.

$\frac{1}{2}$ $\frac{3}{4}$ $\frac{1}{4}$ 1

Bilangan yang paling besar adalah ....

A $\frac{1}{2}$
B $\frac{3}{4}$
C 1
D $\frac{1}{4}$

2 Sebuah pizza dibagi menjadi 4 bagian sama besar.

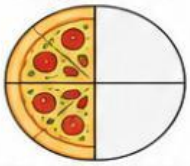

Dua bagian sudah dimakan.

Pecahan yang menunjukkan bagian yang dimakan adalah ....

A $\frac{1}{4}$
B $\frac{2}{4}$
C $\frac{3}{4}$
D $\frac{4}{4}$

3 Manakah pecahan yang sama dengan $\frac{2}{4}$?

A $\frac{1}{2}$
B $\frac{1}{3}$
C $\frac{3}{4}$
D $\frac{2}{3}$

4 Satu kantong berisi 15 buah jeruk.

Setiap 5 jeruk = 1 kg

Berat jeruk adalah ....

A 2 kg
B 3 kg
C 4 kg

5 Ibu mempunyai 12 roti.



Sebanyak 6 roti diberikan kepada tetangga.

Bagian roti yang diberikan adalah ....

A $\frac{1}{4}$
B $\frac{1}{2}$
C $\frac{3}{4}$
D 1

6 Jarak rumah Rina ke sekolah 2 km.

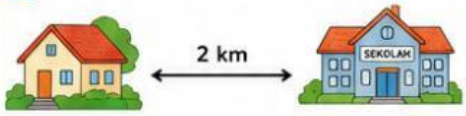

Rina naik sepeda dengan kecepatan 4 km/jam.
Lama perjalanan Rina adalah ....

A 15 menit
B 30 menit
C 45 menit
D 60 menit

7 Latihan renang dilakukan setiap 7 hari sekali.

AGUSTUS						
Min	Sen	Sel	Rab	Kam	Jum	Sab
					1	2
3	4	5	6	7	8	9
10	11	12	13	14	15	16
17	18	19	20	21	22	23
24	25	26	27	28	29	30
31						

Hari ini tanggal 3 Agustus.
Latihan berikutnya adalah tanggal ....

A 8 Agustus
B 9 Agustus
C 10 Agustus
D 17 Agustus

8 Pada peta, jarak rumah ke sekolah 2 cm.

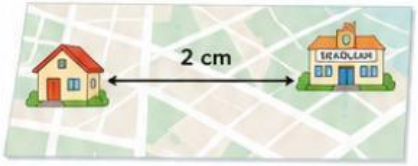

Jarak sebenarnya 2 km.
Skala peta adalah ....

A 1 : 100.000
B 1 : 50.000
C 1 : 10.000
D 1 : 1.000

9 Bangun yang mempunyai 3 sisi adalah ....

A Persegi

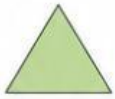

B Segitiga

C Lingkaran

D Persegi panjang

10 Benda yang berbentuk kubus adalah ....

A Dadu

B Bola

C Kaleng

D Gelas

11 Trapesium mempunyai ....

A satu pasang sisi sejajar
B semua sisi sama panjang
C tidak mempunyai sudut
D berbentuk lingkaran

12 Persegi panjang memiliki panjang 8 cm dan lebar 4 cm.

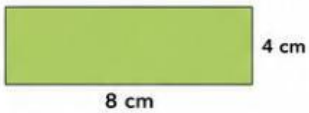

Luasnya adalah ....

A 12 cm^2
B 24 cm^2
C 32 cm^2
D 36 cm^2

13 Persegi mempunyai panjang sisi 5 cm.

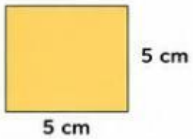

Keliling persegi adalah ....

A 10 cm
B 15 cm
C 20 cm
D 25 cm

14 Kubus mempunyai panjang sisi 5 cm.

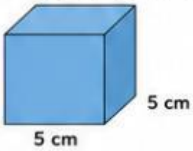

Volume kubus adalah ....

A 25 cm^3
B 50 cm^3
C 125 cm^3
D 250 cm^3

15 Perhatikan data berikut.

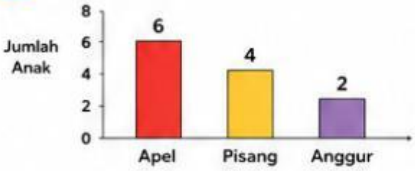

Buah yang paling banyak disukai adalah ....

A Pisang
B Anggur
C Apel
D Semua sama

Kerjakan dengan teliti dan semangat! 🙂

LIVEWORKSHEETS