Scăderea cu 1–5 unități

1. Observă imaginile și scrie scăderile potrivite.



2. Colorează rezultatul corect.

10 - 1 =	7	9	8
7 - 5 =	2	3	4
6 - 3 =	2	4	3
9 - 4 =	4	6	5
10 - 5 =	5	6	7

8 - 2 =	6	5	4
4 - 3 =	2	1	3
9 - 5 =	6	4	2
5 - 1 =	2	1	4
3 - 2 =	2	0	1

LIVEWORKSHEETS

3. Completează peștișorii cu rezultatele scăderilor.

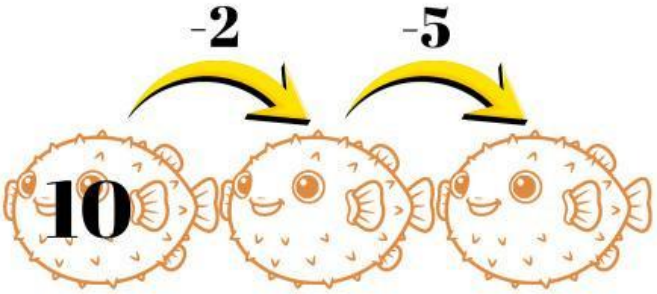

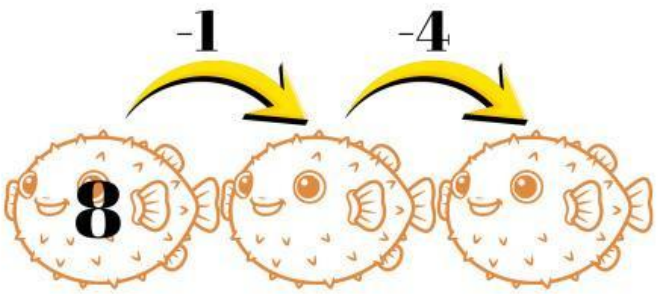

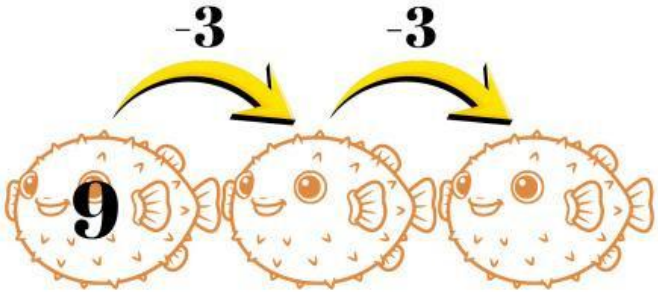

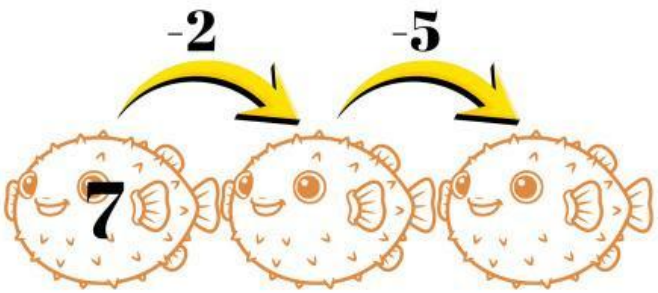

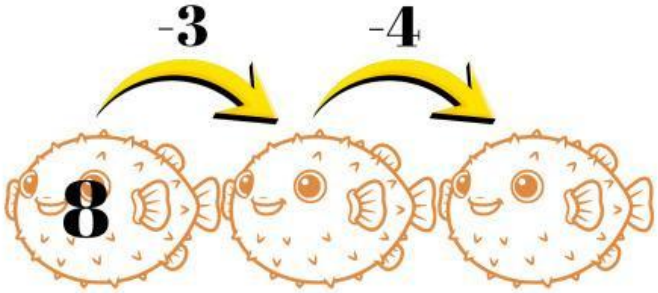

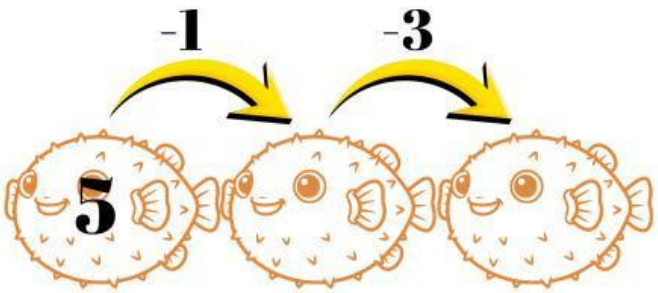

4. Completează tabelul de mai jos.

Au fost	8	10	6	9
Au plecat	3	4	4	2
Au rămas				

LIVEWORKSHEETS

5. Pune în corespondență peștisorul cu acvariul potrivit.

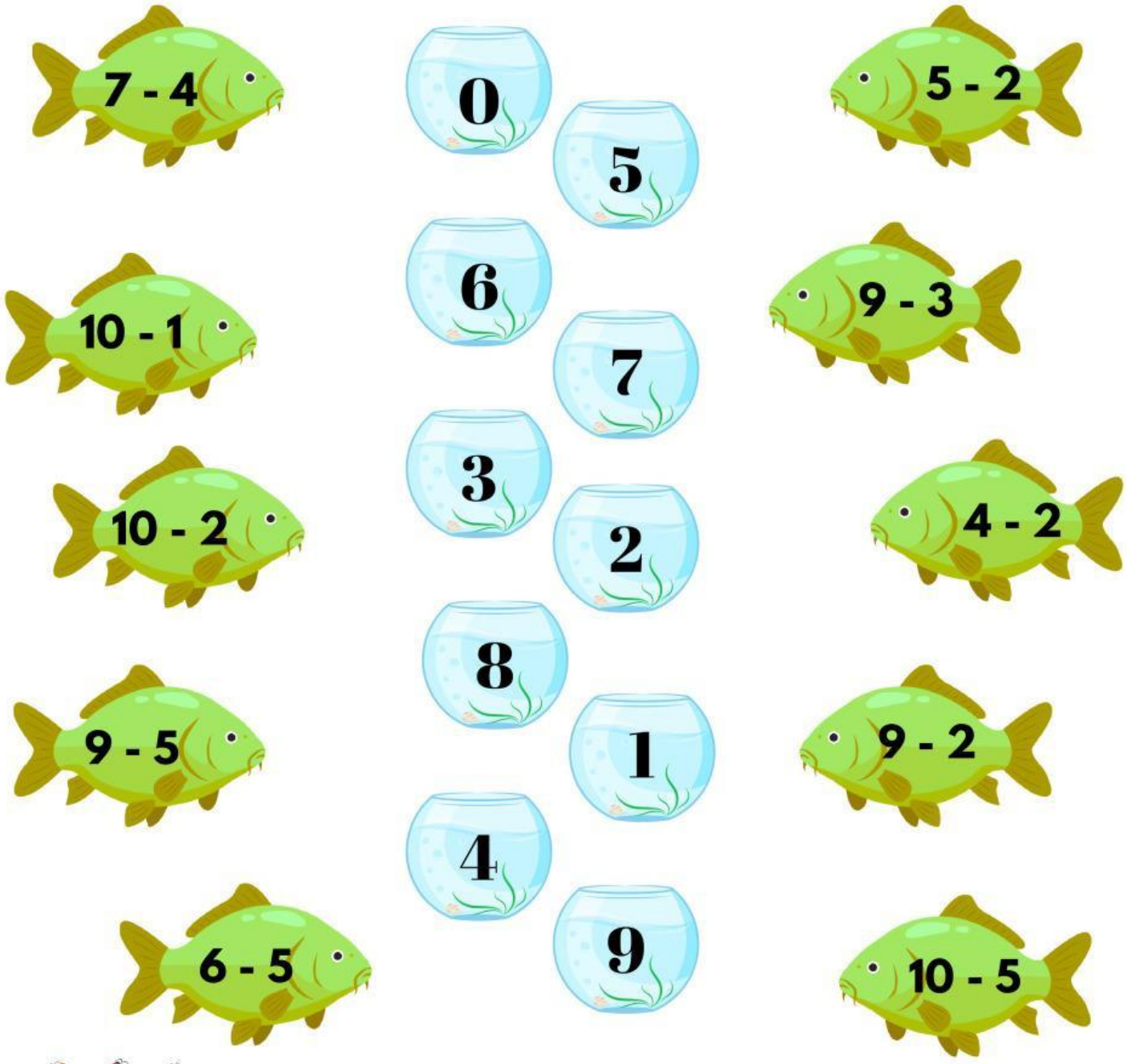

6. Alege rezolvarea corectă a problemei.

Pe țărmul mării se aflau 10 crabi. Un val puternic a luat 5. Câți crabi au rămas pe țărm?

10 + 5 =	10 - 5 =	5 - 5 =

LIVEWORKSHEETS

7. Completează căsuțele cu numere potrivite, folosindu-te de axa numerelor.

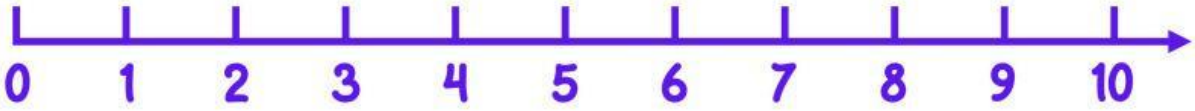

3	-		=	2
9	-		=	5
10	-		=	7
5	-		=	4
8	-		=	6

10	-		=	9
8	-		=	5
7	-		=	4
4	-		=	2
6	-		=	2

8. Adevărat ✔ sau fals ✘ ?

- [ ] Diferența dintre 8 și 3 este un număr impar.
- [ ] Dacă vei scădea 5 din cel mai mic număr format din două cifre vei obține rezultatul 4.
- [ ] 9 - 4 = 5
- [ ] Diferența vecinilor lui 6 este 2.
- [ ] Diferența dintre 7 și vecinul mai mic al lui 5 este 1 .

LIVEWORKSHEETS